7

ILMU BUMI



56-136.3A/12006/92

OLEH

HABIB St. MAHARADJA
GURU S.G.B. NEGERI

&

SAIDI St. SATI
INSPEKTUR SEK. RAKJAT

DJILID 3 A
Untuk Kelas 6 S. Rakjat

8
H

...PERCETAKAN & PENERBITAN „KEDJORA"
BUKITTINGGI – DJAKARTA

UNTUK SEKOLAH RAKJAT

Kelas I

Mari Membatja	I)	Peladjaran membatja permulaan	Rp.6,—
Mari Membatja	II)	oleh: Rabaini Dt. R. Angek	Rp.6,—
Mari Membatja	III)	dan Saidi St. Sati Inspektur Sekolah Rakjat Sum. Tengah	Rp.6,—
Mari Menulis	I	oleh: Rabaini dan Sa'danoer	Rp.5,—
Mari Berhitung	I	oleh: Rabaini dan Sa'danoer	Rp....

Kelas II

Pandai Membatja	I)	Batjaan Landjutan oleh: Habib	Rp.8,—
Pandai Membatja	II)	St. Maharadja guru S.G.B. Negeri dan Saidi St. Sati Inspektur S R. Sum.Tengah	Rp.8,—
Mari Menulis	II	oleh: Rabaini dan Sa'danoer	Rp.5,—
Mari Berhitung	II	oleh: Rabaini dan Sa'danoer	Rp....

Kelas III

Purnama	I)	Batjaan Permulaan Huruf 'Arab	Rp.8,—
Purnama	II)	oleh: Saidi St. Sati Inspektur	Rp.7,—
Purnama	III)	Sekolah Rakjat Sum. Tengah	Rp.7,—
Pintar Membatja	I	Batjaan Landjutan	Rp....
Pintar Membatja	II	oleh: Habib St. Maharadja dan Saidi St. Sati Inspektur S. R.	Rp....
Mari Menulis	III	oleh: Rabaini dan Sa'danoer	Rp....
Mari Berhitung	III	oleh: Rabaini dan Sa'danoer	Rp....
Pemahir Petjahan (Hitungan Petjahan) Dt.Bandaro Putih			Rp.4,—
Ukuran, Takaran Timbangan (U.T.T.) Dt.Bandaro Putih			Rp.4,—
Pengasuh (Peladjaran Agama) oleh: H. Djalaloeddin Thaib guru S. M. A. Negeri			Rp.3,—
Mata Angin oleh: Dt. Bandaro Putih			Rp.1,50
Ilmu Bumi Kabupaten		(Tiap² Kabupaten didaerah Sumatera Tengah)	Rp.4,—

Penerbit: N. V. „KEDJORA" Bukittinggi
(Djalan Singgalang 11—13).

17 OCT 1992

ILMU BUMI

DJILID III A

ICHTISAR ASIA TIMUR DAN SELATAN — AUSTRALIA DAN SELANDIA BARU
MALAKA DAN SINGAPURA — KALIMANTAN INGGERIS
BIRMA — MUANGTHAI (SIAM) — INDOTJINA — PILIPINA
DJEPANG — KOREA — INDIA — NEPAL — PAKISTAN — SAILAN

Untuk
Sekolah Rakjat Kelas VI

Oleh:

Habib St. Maharadja
Guru S.G.B. Negeri

Saidi St. Sati
Inspektor Sekolah Rakjat

JAJASAN UNTUK MEMADJUKAN PERSEDIAAN LEKTUR
JAJASAN LEKTUR
JANG BERGUNA UNTUK PEMBANGUNAN MASJARAKAT

Tjetakan kedua

56-B6.34/12006/92

Penerbit:
N. V. PERTJETAKAN & PENERBITAN „KEDJORA"
BUKITTINGGI PALEMBANG DJAKARTA

PERPUSTAKAAN NASIONAL R.I.

Tanggal : 26-10-92
No. Induk : 12 [illegible]/PN/92/Ebs
BIB - ID :
Beli/Hadiah :
4/Ebs Koleksi Repositorium/DNe

ISI BUKU

Halaman

Kata pendahuluan

I. Indonesia „Pusat Perhatian Dunia" dan kerdja-sama dengan Negara² lain 5

II. Negara² Tetangga Indonesia 9

III. Australia dan Selandia Baru 10

IV. Ichtisar Asia Timur dan Selatan 18

V. Malaka dan Singapura 22

VI. Kalimantan Inggeris 24

VII. Birma 24

VIII. Muang Thai (Siam) 27

IX. Indo Tjina 28

X. Filipina 31

XI. Tiongkok 34

XII. Djepang (Dai Nippon) 38

XIII. Korea 43

XIV. India 44

XV. Nepal 48

XVI. Pakistan 48

XVII. Sailan (Ceylon) 50

KATA PENDAHULUAN

Maksud peladjaran Ilmu Buni ialah :

1) Mempeladjari hal-ihwal tanah dan bangsa sendiri untuk dasar mengetahui dan memperbandingkan dengan tanah^2 (negara^2) dan bangsa^2 lain.
2) Untuk dapat memperoleh pemandangan jang sehat buat menghargai Nusa dan Bangsa sendiri terhadap negara dan bangsa lain.
3) Mempeladjari hal-ihwal Negara dan bangsa lain, jang sangat penting artinja dalam hidup-bersama dan bekerdja-sama untuk perdamaian dan kemakmuran dunia.

Atas dasar „maksud" inilah — sesuai dengan Rentjana Peladjaran Terurai dari Kementerian P.P.K. — kami susun kitab Ilmu Bumi jang paling baru ini untuk Sekolah Rakjat, terdiri dari :

Djilid I untuk kelas IV,
Djilid II A dan djilid II B untuk kelas V,
Djilid III A dan djilid III B untuk kelas VI.

Bagaimanakah dapat kita memperoleh pandangan jang sehat untuk menghargai Nusa dan Bangsa sendiri ?

1) Dengan mengetahui sedjarahnja sekadar perlunja.
2) Dengan mengetahui Pahlawan^{2}nja.
3) Dengan mengetahui kebudajaannja.
4) Dengan mengetahui kekajaan alamnja.
5) Dengan mengetahui perhubungan Negara kita dengan Negara^2 lain, lebih^2 Negara tetangga.

Menurut pendapat kami, peladjaran Ilmu Bumi harus selalu disesuaikan dengan masa dan keadaan jang selalu ber-ubah^2. Peladjaran Ilmu Bumi djangan **terlalu** dititik-beratkan pada „mengetahui" dan „menghapal" gunung^2, sungai^2, kota^2, dll., jang tertulis pada peta, tetapi harus didjiwai dengan kelima faktor jang tersebut diatas. Peladjaran Ilmu Bumi jang sangat mengutamakan „pengetahun-peta" adalah peladjaran jang kering dan kersang. Sedapat mungkin peladjaran Ilmu Bumi itu dapat menggambarkan ber-matjam^2 persoalan nasional dan internasional kepada murid^2 S. R. dengan tidak setjara mendalam, lebih^2 kepada murid^2 kelas VI.

Kemadjuan dalam **menanggap** sesuatu dengan alat-pikiran dalam suasana kemerdekaan, jang meliputi bangsa Indonesia sedjak tanggal 17 Agustus 1945, djauh lebih tjepat djalannja daripada dizaman pendjadjahan dahulu. Murid^2 S. R. sekarang, jang tinggal di-kota^2 djauh lebih banjak pengetahuannja daripada kita

dahulu, semasa duduk dibangku S.R. dalam zaman pendjadjahan. Begitu djuga murid² S.R. dipedalaman jang sekarang, telah banjak pengetahuannja, meskipun tertjetjer dari teman²nja jang bersekolah di-kota² jang banjak mendengar siaran radio dan dapat pula membatja surat² kabar dan madjallah².

Agar supaja pengetahuan murid² S.R. umumnja (dipedalaman dan di-kota²) mengenai peladjaran Ilmu Bumi tidak terlalu ber-beda² dan sesuai dengan keadaan sekarang, kami usahakan menjusun kitab peladjaran Ilmu Bumi, jang mengandung persoalan-persoalan ekonomi, politik, sosial, kebudajaan, dll. atas pokok-dasar Rentjana Peladjaran jang dikeluarkan Kementerian P.P.K. Untuk dapat menjusun kitab Ilmu Bumi jang 5 djilid ini, kami banjak mempergunakan kitab², antara lain ialah :

1. Atlas Semesta Dunia.
2. Ensiklopedi Adi Negoro.
3. „ W. van Hoeve.
4. „ Winklerprins
5. Sedjarah Ka'bah oleh H. Aboebakar.
6. Waktu dan Djidwal oleh Saadoe'ddin Djambek.
7. Tjatatan² dari madjalah² dan surat² kabar.

Harus pula kami djelaskan, bahwa murid² tak perlu menghapal semua jang tertulis dalam kitab ini; tjukuplah sekadar jang perlu sadja. Jang terpenting ialah „memperluas" pengetahuan murid² dalam ber-matjam² persoalan jang berhubungan dengan Ilmu Bumi. Oleh karena itu diandjurkan, supaja kitab ini benar² dibatja oleh murid² dengan memahamkan apa² jang harus dipahamkan dan menghapal apa² jang harus dihapal.

Sebenarnja bahan² peladjaran jang harus dipahamkan oleh murid² itu masih dapat lagi **dipopulerkan** (dipersahadja dengan bentuk karangan jang mudah dipahamkan), tetapi karena itu kitab peladjaran Ilmu Bumi ini akan mendjadi lebih tebal.

Kami harap, semoga kitab jang kami susun ini dapat kiranja memberi kepuasan kepada saudara para guru dan anak² kita murid² S.R. Dalam pada itu segala andjuran ataupun ketjaman jang sehat, jang maksudnja untuk lebih menjempurnakan kitab ini akan kami terima dengan hati terbuka dan rasa terima kasih.

Bukittinggi, Djuli 1956

PENJUSUN

I. INDONESIA „PUSAT PERHATIAN DUNIA" DAN KERDJASAMA DENGAN NEGARA² LAIN

Tidak ada sebuah djuga negara didunia ini, jang dapat berdiri dan hidup sendiri tanpa negara² lain. Negara² dan bangsa² didunia ini memerlukan kerdjasama dan bantu-membantu. Oleh karena itu terdjadilah perhubungan antara satu negara dengan negara lain dalam **perekonomian, politik, kebudajaan** dll.

Negara kita, Indonesia jang kaja-raja, sedjak zaman purbakala mendjadi pusat-perhatian dunia, lebih² setelah negara kita merdeka dan berdaulat.

Untuk sekadar mendjelaskan, bagaimana perhubungan perekonomian antara negara kita dengan **pantjabenua** (Australia, Asia, Eropah, Amerika dan Afrika), perhatikanlah gambar dibawah ini :

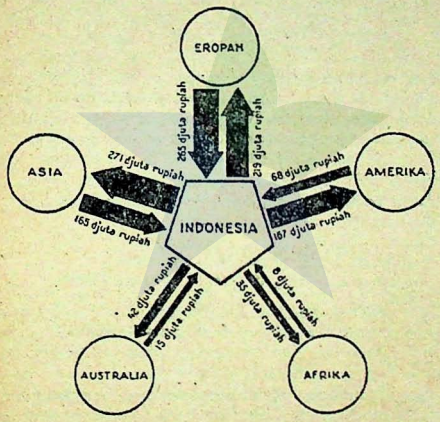

Gambar² panah itu memperlihatkan perbandingan **eksport** dengan **import** dalam tahun 1939 hingga 1941 waktu pemerintahan [pendjadjahan] Belanda.

Sebagai ternjata pada tebalnja gambar panah² itu, maka perhubungan ekonomi antara **Indonesia dengan Eropah-lah jang nomor satu,** nomor dua antara Indonesia dengan Asia dan nomor tiga antara Indonesia dengan Amerika.

Eksport/import jang terbesar :

1. **Eropah :** antara Indonesia — Negeri Belanda.
   „ Indonesia — Djerman.
   „ Indonesia — Inggeris.
2. **Asia :** „ Indonesia — Djepang.
   „ Indonesia — Singapura.
   „ Indonesia — India.
3. **Amerika :** „ Indonesia — Amerika Serikat.

Eksport/import antara **Indonesia — Australia** dan antara **Indonesia — Afrika** ada djuga, tetapi tidaklah banjak.

Dari manakah jang terbanjak import ke Indonesia ?

Nomor 1 dari Negeri Belanda.
„ 2 „ Djepang.
„ 3 „ Amerika Serikat.
„ 4 „ Djerman.
„ 5 „ Inggeris.
„ 6 „ Singapura.

Sebagai telah kita ketahui, negara kita adalah **negara-agraria;** djadi jang di-eksport dari Indonesia ialah hasil² perkebunan (hasil² tanah). Dibandingkan dengan negeri² lain diseluruh dunia, tidak ketjil artinja peranan jang dipegang Indonesia dalam menghasilkan barang² jang tersebut dibawah ini dalam tahun 1937 :

1. Kina 90% dari hasil seluruh dunia.
2. Lada (meritja) 70% dari hasil seluruh dunia.
3. Kapuk 79% dari hasil seluruh dunia.
4. Karet 38% dari hasil seluruh dunia.
5. Kopra 30% dari hasil seluruh dunia.
6. Kelapa-sawit 20% dari hasil seluruh dunia.

Sungguh amat penting artinja negara kita dalam menghasilkan barang² mentah, tetapi keuntungannja waktu dulu itu, sebelum Indonesia merdeka dan berdaulat, sebagian besar djatuh keluar negeri.

Sekarang Indonesia telah merdeka dan berdaulat sepenuhnja. Sudah barang tentu Pemerintah R.I. berusaha se-giat²nja, agar perhubungan ekonomi, politik, kebudajaan, dll. antara Indonesia dengan negara² lain didunia ini pesat kemadjuannja dan membawa keuntungan jang seimbang antara kita dengan negara² lain itu. Untuk mentjapai ini negara kita menanam perwakilannja diluar negeri.

Menurut keadaan 1 April 1955 negara kita telah mempunjai **49 perwakilan diluar negeri.** Wakil² kita diluar negeri itulah jang membela kepentingan negara dan bangsa kita.

Bila kita misalnja hendak mendjeladjah keluar negeri, maka kepada perwakilan kita itulah kita meminta pertolongan.

Kepala² perwakilan kita itu ada jang berpangkat **Dutabesar luar-biasa** dan **Berkuasa Penuh,** misalnja di **India,** di **Pakistan** dll. Kalau perwakilan itu hanja untuk perhubungan perdagangan [ekonomi] sadja, maka kepalanja disebut **Konsol,** misalnja di **Calcutta,** di **Bombay** dll. Dalam pada itu ada lagi tingkat² pangkat, jang disebut: **Dutabesar Luarbiasa dan Menteri Berkuasa Penuh, Duta Luarbiasa dan Menteri Berkuasa Penuh, Konsol Djenderal, Konsol, Vice-Konsol.**

Perwakilan jang luas, sebagai di Inggeris dan di Amerika, mempunjai ber-matjam² bagian. Ada bagian kemiliteran, jang dikepalai oleh **Attace Militer;** ada bagian perkabaran, jang dikepalai oleh **Press Attase;** ada bagian kebudajaan, jang dikepalai oleh **Attase Kebudajaan,** dll.

Apabila kita dalam pendjeladjahan kita menghendaki pertolongan dengan lekas, maka kita kirim surat-kawat kepada perwakilan kita itu, misalnja kepada **perwakilan di India,** alamat-kawatnja: **Indonesia New Delhi.** Tiap² orang jang hendak mendjeladjah keluar negeri, harus mengetahui alamat tempat perwakilan itu dan alamat-kawatnja.

Sebagai imbangan, negara²/negeri² lain mempunjai perwakilannja djuga dinegara kita. Hingga 1 April 1955 telah ada 36 perwakilan luar-negeri di Indonesia. Perwakilan² luar-negeri itu mobilnja mempunjai huruf² jang berlainan dengan huruf² mobil penduduk Indonesia jang lain, jaitu **C.D.** dan **C C.**

POLITIK R.I.

R. I. dalam politiknja tidak mau mengikat dirinja pada satu blok. Politik ini dinamai **politik bebas jang aktif,** jaitu bebas mendjalankan politiknja dengan giat untuk kemakmuran negaranja dan perdamaian dunia.

Dalam **„dunia politik internasional"** [politik dengan negara² sedunia] Republik Indonesia telah mempunjai kedudukan jang kuat. Selain daripada telah mendjadi anggota P. B. B. (Perserikatan Bangsa²) dengan mempunjai perwakilan tetap di P. B. B. itu, R.I. telah dapat pula menggerakkan **Konperensi Asia-Afrika dikota Bandung** dari tanggal 18 — 24 April 1955, jang dikundjungi oleh wakil² dari 29 Negara Asia-Afrika.

Konperensi negara² Asia-Afrika itu berkumpul atas undangan Pantja Perdana Menteri: **Indonesia, India, Sailan, Burma dan Pakistan.** Jang mendjadi Ketua Konperensi A-A itu ialah Perdana Menteri R. I. Mr. Ali Sastroamidjojo.

29 Negara Asia-Afrika jang mengundjungi dan mewakili negara²nja di Konperensi A-A di Bandung itu ialah:

No.	Negara	Ibu Kotanja	Penduduknja	Luasnja dalam Mil persegi
1.	Afganistan	Kabul	12.000.000 (1949)	245.000
2.	Burma	Rangoon	18 859.000 (1952)	261.789
3.	Cambodja	Phnom Penh	3.227.000	88.780
4.	Ceylon	Colombo	8.103.000 (1955)	25.352
5.	China (RRT)	Peking	650.000 000 (1955)	3.760.339
6.	Mesir	Cairo	20.729.000 (1951)	386.000
7.	Ethiopia	Adis Abeba	18.180.000 (1953)	350.000
8.	Pantai Emas [Gold Coast]	Accra	3.989.000	78.802
9.	India	New Delhi	356.829.485 (1951)	1.221.000
10.	Indonesia	Djakarta	78.163 000 (1953)	735.865
11.	Iran	Teheran	19.151.000 (1951)	628.000
12.	Iraq	Bagdad	5.100 000 (1950)	116.600
13.	Japan	Tokio	85.500.000 (1952)	147.690
14.	Jordan	Amman	1.500.000 (1950)	37.500
15.	Laos	Vientiane	1.189 000	69.480
16.	Lebanon	Beirut	1.285.000 (1951)	4 000
17.	Liberia	Monrovia	2.750.000 (1953)	43.000
18.	Libya	Tripoli	1.340.000 (1952)	1.100 000
19.	Nepal	Kathhamandu	7.000 000 (1948)	54.000
20.	Pakistan	Karachi	75.687.000 (1951)	365.907
21.	Pilipina	Manila	20.631.000 (1952)	115.000
22.	Saudi Arabia	Riyad	6.500.000 (1948)	870.000
23.	Sudan	Khartoum	8.764.000 (1951)	967.500
24.	Syria	Damascus	3.381.000 (1952)	66.046
25.	Thailand	Bangkok	19.192 000 (1952)	200 148
26.	Turki	Ankara	20 935 000 (1950)	296.503
27.	Republik Demokrasi Vietnam (Utara)	Hanoi	9.851.000	
28.	Negara Vietnam (Selatan)	Saigon	5.579.000	127.380
29.	Yaman	San'a	5.000.000 (1952)	75.600
	Djumlah		1.472.414.485	12.606.938

Dipetik dari „Kebudajaan Asia-Afrika"
oleh
Mr. Muhammad Yamin
(B. P. No. 1979)

PERPUSTAKAAN NASIONAL R.I.

Dalam Konperensi itu telah dirundingkan: 1) **Kerdjasama Ekonomi;** 2) **Kerdjasama Kebudajaan;** 3) **Hak² Manusia dan Hak Menentukan Nasib Sendiri;** 4) **Masaalah Bangsa² Jang Belum Merdeka;** 5) **Soal² lain.**

Inilah untuk pertama kalinja dalam sedjarah-dunia tersusun suatu piagam kerdjasama dilapangan kebudajaan, penerangan dan pengadjaran dari bangsa² berwarna dibenua Asia-Afrika, jang berdjumlah ± 1500 djuta djiwa, djusteru dibumi R.I.

Tiga perlima machluk manusia diseluruh dunia mendapat persatuan untuk bekerdjasama dalam persoalan jang tersebut diatas.

II. NEGARA² TETANGGA INDONESIA

Negara² Tetangga Indonesia jang terdekat ialah di **Asia Timur** dan **Selatan** dan benua **Australia** & **Selandia Baru.**

Karena Negara R.I. dewasa ini telah mendjadi pusat perhatian seluruh dunia dan dari dahulu mempunjai perhubungan ekonomi dengan benua² lain djuga, maka haruslah kita peladjari dikelas VI ini Negara² Tetangga dan Pantja Benua, jaitu **1) Benua Australia, 2) Benua Asia, 3) Benua Eropah, 4) Benua Amerika** dan **5) Benua Afrika.**

Mengingat kembali.

1. Apakah sebabnja maka terdjadi perhubungan perekonomian, politik dan kebudajaan antara negara² didunia ini?
2. Jang manakah jang disebut pantjabenua?
3. Sebelum Belanda menjerah kepada Djepang dalam tahun ....., maka eksport/import antara Indonesia dengan ..... lah jang terbesar; nomor 2 antara Indonesia dengan ..... dan nomor 3 antara Indonesia dengan .....

   Import ke Indonesia:

   No. 1 dari .....
   No. 2 dari .....
   No. 3 dari .....
   No. 4 dari .....
   No. 5 dari .....
   No. 6 dari .....

4. Negara kita ialah negara-agraria: djadi jang dieksport keluar negeri ialah ..... Dalam tahun 1937 hasil Indonesia jang terbesar diperbandingkan dengan negeri² lain diseluruh dunia ialah: 1) ..... (....%); 2. ..... (...%); 3. ..... (...%); 4. ..... (....%); 5. ..... (....%); 6. ..... (...%).

5. Negara kita telah mempunjai ..... perwakilan diluar negeri, jang gunanja untuk .....
6. Apa²kah nama pangkat kepala perwakilan² kita diluar negeri itu ?
7. Konsol ialah .....
8. Di-mana²kah negara kita mempunjai perwakilan jang luas dan apa²kah bagian²nja ?
9. Dapatkah kamu menentukan mobil² kepunjaan perwakilan luar negeri di Indonesia ? Terangkanlah apa artinja huruf² itu !
10. Politik apakah jang dianut oleh Negara R.I. ?
11. Apakah maksudnja politik jang demikian itu ?
12. Bagaimanakah kedudukan Indonesia dalam „dunia politik internasional" ? Terangkanlah !
13. Pabilakah dan dimanakah telah diadakan Konperensi Asia-Afrika ?
14. Berapa buah negarakah jang diwakili dalam konperensi itu ?
15. Negara manakah jang terbesar diantara negara² anggota konperensi itu ?
16. Dalam konperensi A-A itu telah dirundingkan 5 matjam atjara, jaitu .....
17. Konperensi ini amat penting artinja, karena disinilah dirundingkan kepentingan ..... djuta umat manusia Asia-Afrika, jaitu ± ..... machluk manusia diseluruh dunia.
18. Sebutkanlah negara²/negeri² tetangga Indonesia jang terdekat !

III. AUSTRALIA DAN SELANDIA BARU

A. Pemerintahannja, luasnja, penduduknja, dll.

1. Bentuk negara : **dominion** (= tidak berdiri sendiri), dikuasai oleh Inggeris.
2. Kepala Negara : Gubernur Djenderal, jang diangkat oleh Radja Inggeris.
3. Luasnja : ± 18 X Sumatera.
4. Penduduknja : lebih 8 djuta.
5. Benderanja : Biru dengan 6 buah bintang jang tak sama besarnja dan disudut atas, sebelah kiri, bendera Inggeris : „Union Jack".
6. Ibunegerinja : **Canberra** (25.000 djiwa).

7. Mata uang : Pond Australia (£ A).
8. Agama : Geredja Anglican (satu mazhab Kristen) ± 38%, Katolik-Rum ± 19,5%, Presbyterian (mazhab kuno) ± 10,8%, Metodis (mazhab baru) ± 10,1% dan lain² ± 21,6%.

B. Sedjarah ringkas tentang „menemui Australia".

Australia (= tanah Selatan) ialah benua jang terketjil dan jang paling sedikit penduduknja dan benua jang paling achir pula didapat orang. Orang jang mula² melihat benua Australia itu ialah seorang Belanda dalam tahun 1606, bernama **Willem Jansz**. Ia tidak turun kedarat, hanja memasuki sebuah teluk, jang sekarang bernama Teluk Carpentaria.
Kemudian datang pula seorang Belanda kebenua ini dalam tahun 1642 — 1644 bernama **Abel Tasman**. Abel Tasman ini hanja dapat melihat sebahagian besar daerah jang kering dan karena tidak akan mendatangkan keuntungan — menurut anggapannja — maka benua jang ditemuinja ini tidaklah diambil oleh Pemerintah Belanda.

Dalam tahun 1770 seorang Inggeris, bernama **James Cook** datang pula kebenua ini dan dapat pula menemui **Selandia Baru** (New Zealand), jang terdiri dari 2 buah pulau, jang ditieraikan oleh sebuah selat, jang sekarang bernama **Selat Cook.**

James Cook dapat melihat tanah² jang subur, jang akan mendatangkan keuntungan bagi Inggeris. Oleh karena itu diambilnjalah benua ini untuk pemerintah Inggeris.

Ber-puluh² tahun lamanja, jaitu sedjak tahun 1788 sampai tahun 1868 bagian Selatan dan Barat Australia didjadikan tempat pembuangan pendjahat² bangsa Inggeris oleh Pemerintah Inggeris. Dalam pada itu mulai tahun 1820 telah datang djuga orang Inggeris jang lain (bukan pendjahat) kebenua ini. Dalam tahun 1851, setelah diketemukan emas dibagian Tenggara, mulailah orang Inggeris membandjiri Australia.

Sebelum kedatangan orang Barat, benua ini telah banjak kali didatangi pedagang² Indonesia. Pelajar² Bugis menamai benua ini **Marege.**

C. Penduduknja.

Penduduk Australia sangat djarang, jaitu lebih sedikit dari 8 djuta djiwa. Penduduk ini dapat dibagi atas 2 bagian, jaitu **penduduk-asli**, jang disebut **Neger Australia** dan **Bangsa Kulit Putih.**

Penduduk asli itu dinamai Neger karena kulitnja hitam, bukan karena ia sebangsa dengan Neger di Afrika. Hidung mereka pesek dan lebar. Mereka itu makin lama makin berkurang-kurang djuga banjaknja : dalam $1^1/_2$ abad berkurang dari $1^1/_2$ djuta sampai 150.000 djiwa. Sekarang djumlahnja antara 60.000 — 70.000 djiwa. Penduduk asli itu makin berkurang[2] djuga ialah karena :

1. Mereka terdesak ke-tempat[2] jang kering dan tak subur dan kedalam hutan, sehingga tak tjukup makanannja.
2. Banjak penjakit menular, jang berdjangkit diantara mereka dan mengorbankan djiwa mereka.
3. Mereka belum tjerdas dan karena itu tidak tahu mengatur penghidupannja.

Kebanjakan, bahkan sebagian besar dari mereka itu belum kenal akan sendjata besi. Sendjata[2] jang dipakainja ialah **bumerang, tombak, waddag** (toja atau tembung pendek). Rumah[2]nja terbuat dari pada kulitkaju dan ranting[2]. Agamanja **animisme,** (semua benda mempunjai djiwa); mereka tidak mengenal pendeta dan tidak pula menjembah berhala.

Ada pula sematjam **kepertjajaan** atau **agama** jang dianut oleh penduduk Australia Utara, jaita **„agama totem".** Menurut agama totem ini asal manusia adalah berkeluarga dengan tumbuh[2]an atau binatang.

Untuk dipudja ditanamkannja sebatang tiang, jang menggambarkan bapak keturunan mereka.

Bangsa Kulit Putih ialah keturunan orang[2] Inggeris jang mendatangi benua ini sedjak tahun 1788. Dalam tahun 1840 Bangsa Kulit Putih di Australia telah berdjumlah 190.000 djiwa dan djumlah itu meningkat mendjadi 1.145.000 djiwa, setelah emas diketemukan dibagian Tenggara dan Barat. Djadi Bangsa Kulit Putih, penduduk Australia jang sekarang adalah turunan dari mereka jang sedjuta lebih sedikit itu.

Orang[2] Eropah jang telah datang ke Australia, kebanjakan tinggal menetap disana untuk beternak dan bertani. Buruh Australia lebih baik keadaannja daripada buruh[2] negeri lain, karena upahnja tinggi. Buruh[2] Australia kuat mempertahankan kedudukannja. Kedatangan orang[2] jang hendak memburuh dihalangi, supaja upah perburuhan djangan turun. Kebanjakan penduduk diam di-kota[2]. Dalam masjarakat Bangsa Kulit Putih boleh dikata tidak terdapat kemiskinan.

D. **Keadaan tanahnja.**

Teluknja jang terpenting ada 2 buah, jaitu **Teluk Carpentaria** (di Utara), dilingkungi oleh **Tandjung Arnhem** dan **Tandjung York, Teluk Besar Australia** (di Selatan).

Menurut keadaannja, tanahnja dapat dibagi atas 3 bagian:

1. Tanah-pegunungan sebelah Timur; disini subur tanahnja, karena banjak turun hudjan.
2. Dataran-tinggi sebelah Barat; disini kurang subur tanahnja, karena hudjan kurang.
3. Dataran-rendah ditengah; disini tanahnja tandus, karena hudjan amat sedikit.

Sungainja jang terbesar: s. Murray dengan anaknja s. Darling; sungai² ini hanja sedikit airnja.
Lihatlah angka² pada peta!

Pegunungan²nja:

1. Peg. Biru (Blue Range)
2. Peg. Alpen Australia

Sungai²nja:

3. S. Murray
4. S. Darling

Danau²nja banjak: jang penting:

5. D. Eyre

Tandjung jang penting:

6. Tg. York

Teluk² jang penting:

7. Tl. Carpentaria
8. Tl. Besar Australia

Laut²nja:

9. L. Tasman
10. L. Koral
11. Sl. Cook

Pulau²:

Selandia Baru, ibukotanja **Wellington.**

12. P. Utara
13. P. Selatan

E. **Pembagian Pemerintahan.**

I.	**Queensland,** ibukotanja	**Brisbane**	(14)
II.	**New South Wales,** „	**Sydney**	(15)
III.	**Victoria,** „	**Melbourne**	(17)
IV.	**Tasmania,** „	**Hobart**	(18)
V.	**Australia Selatan,** „	**Adelaide**	(20)
VI.	**Australia Barat,** „	**Perth**	(19)

Lain daripada itu :

VII. Daerah Utara (Territori Australia Utara)
VIII. Daerah Papua (Territori Papua)
IX. Daerah Mandat (Trusteeship)

Selandia Baru (New Zealand) terdiri dari Pulau Utara dan Pulau Selatan; ibukotanja **Wellington.** Tanahnja bergunung², jang diantaranja ada jang berapi. Didaerah gunung²-berapi itu banjak terdapat mata-airpanas, jang diantaranja ada jang memantjar tinggi, jang disebut **geyser.**
Penduduknja ialah bangsa **Maori,** jang djumlah ± 90.000 djiwa.

F. **Iklimnja.**

Bahagian Utaranja termasuk daerah jang **berhawa panas (daerah tropika)** dan bahagian Selatannja **berhawa sedang (daerah subtropika).** Perbedaan suhu (= temperatur) antara musim-dingin (musim es) dan musim-panas besar: dipantai antara 10° Celsius hingga ± 40° Celsius, dipedalaman antara — 5° Celsius hingga ± 55° Celsius.

Djelasnja:

a. Dipantai musim dingin suhunja 10° Celsius, musim panas 40°.
b. Dipedalaman musim dingin 5° dibawah nol, musim panas 55°.

Kalau suhu air-biasa 4° Celsius, kira²kanlah bagaimana rasanja suhu² jang tersebut diatas!

Dalam kitab Ilmu Alam ada diterangkan tentang suhu dan termometer (pengukur-panas).

Dipantai Timur banjak turun hudjan, dipedalaman sedikit, di-gurun² pasir tidak turun hudjan sedikit djuga.

Kesimpulannja :

a. Iklim Australia sangat ber-beda^2 : **musim panas sangat panas, musim dingin sangat dingin.**
Siang hari temperatur (suhu) sampai 55^0 Celsius tinggi-nja. Malam hari sangat dingin sampai 5^0 Celsius dibawah nol.

b. Hudjanpun sangat ber-beda^2 : dipedalaman sedikit hudjan, di-gurun^2 pasir tidak sedikit djuga hudjan dan dipantai Timur banjak hudjan.

G. **Tumbuh^{2}an (flora).**

Tumbuh^{2}annja bersifat tersendiri. Pohon^{2}nja ada jang 120 m tingginja, jaitu pohon sematjam kajuputih, jang dinamai **Eucalyptus,** acacia dan pakis. Ada pula sematjam bunga, jang banjak tumbuh di Australi. Bunga ini dinamai **immorttelles,** jaitu bunga jang tetap tinggal baik sampai keringnja.

Didaerah pedalaman, jang kurang hudjannja tumbuhlah hutan-belukar (scrub) dan rumput-tadjam.

Tanam^{2}an jang penting artinja ialah **apel, pir, anggur, djeruk** (sinasappel dan **citroen).**

H. **Binatang^{2}nja (fauna).**

Di Australia hidup beberapa matjam binatang jang aneh selainnja daripada hewan-biasa, misalnja :

1. **Kanguru,** binatang jang berkantung diperutnja untuk pembawa anaknja.
2. **Koala** (teddybear) jang tidak suka minum dan hidupnja dari daun^2 pohon eucalyptus.
3. **Platypus,** binatang jang boleh dikatakan sepertiga burung, sepertiga ikan dan sepertiga kutjing. Binatang ini bertelur sebagai burung, tetapi menjusui anaknja seperti kutjing dan hidup diair seperti biawak.
4. **Tenggiling,** jang dinamai **wombat.** Binatang ini hidup djauh dalam lubang bumi.
5. **Andjing-hutan Tasmania,** bernama **dingo.**
6. Ikan jang bernapas tidak dengan insang.
7. Burung^2 jang beraneka warna.

I. **Peternakan.**

Karena di Australia banjak padang rumput, peternakan disini djauh lebih penting artinja daripada pertanian. Jang terbanjak dipelihara ialah biri², karena biri² menghasilkan wol. Di Australia dipelihara lebih dari 120 djuta biri².

Orang jang mempunjai biri² dinamai **squatter**. Kebanjakan squatter jang sedang kajanja mempunjai ± 70.000 ekor biri² dan padang-rumput jang ± 500 km² luasnja.

Lain daripada biri² diternakkan djuga lembu dan kuda.
Dari Australia banjak di-eksport daging-lembu dalam kaleng, susu-kaleng, mentega dan kulit.

J. **Hasil² tambang.**

Australia banjak menghasilkan barang² tambang : **emas** (di Australia Barat, di Victoria dan di New South Wales), **perak** (di New South Wales dan di Queensland), **timah-hitam** (di Victoria dan New South Wales), **tembaga** (di Victoria, di New South Wales dan Australia Barat), **seng** (di Victoria dan New South Wales), **timah putih** (di Victoria dan di Australia Barat), **besi** (di Victoria dan di Australia Barat), **batubara** (di Victoria, di New South Wales dan di Queensland).

K. **Perhubungan dagang dengan Indonesia.**

Indonesia membeli dari Australia : gandum, mentega, susu-kaleng, dagingkaleng, buah²an, batubara, barang² wol, dll.
Australia membeli dari Indonesia : teh, kopi, minjaktanah, bensin, kina, kopra dll.

L. **Perhubungan lalulintas dengan Indonesia.**

Perhubungan-laut dilakukan oleh K.P.M. dan maskapai² pelajaran asing, misalnja maskapai Inggeris, Amerika, Perantjis dll.

Perhubungan-udara dilakukan oleh G.I.A., B.O.A.C., Qantas, dll.

Mengingat kembali.

1. Australia ialah negara ....., jang dikuasai oleh Inggeris.
   Kepala Negaranja ialah ....., jang diangkat oleh Radja Inggeris.
2. Luas Australia adalah ± ..... X seluas Sumatra dan penduduknja ..... djiwa.
3. Ibunegerinja .....

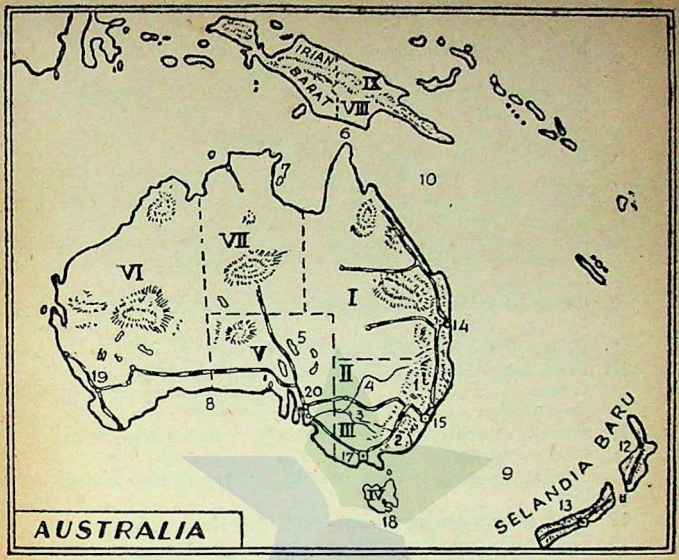

AUSTRALIA

I. Queensland
II. New South Wales
III. Victoria
IV. Tasmania
V. Australia Selatan
VI. Australia Barat
VII. Territory Australia Utara
VIII. Territory Papua
IX. Daerah Mandat

1. Pegunungan Bira
2. Pegunungan Alpen Australia
3. Sungai Murray
4. Sungai Darling
5. Danau Eyre
6. Tandjung York
7. Teluk Carpentaria
8. Teluk Besar Australia
9. Laut Tasman
10. Laut Koral
11. Selat Cook
12. Pulau Utara
13. Pulau Selatan
14. Brisbane
15. Sydney
17. Melbourne
18. Hobart
19. Perth
20. Adelaide

4. Mata wangnja bernama....., tandanja.....
5. Orang jang mula² melihat Australia dalam tahun..... ialah orang Belanda, jang bernama ..... Kemudian datang pula ....., jang bernama .....:
6. Apakah sebabnja benua ini tidak diambil oleh Pemerintah Belanda?
7. Dalam tahun 1770 datang pula seorang Inggeris mengundjungi benua Australia, jang bernama ..... Lain daripada Australia ditemuinja pula ..... Kemudian benua Australia dan ..... itu diambil oleh Pemerintah Inggeris dan Australia didjadikannja tempat .....
8. Orang Inggeris mulai membandjiri Australia dalam tahun ....., setelah.....
9. Pelajar² Bugis menamai Australia dahulu.....
10. Penduduk Australia dapat dibagi atas penduduk-asli, jang disebut ..... dan turunan bangsa Inggeris, jang biasa disebut .....
11. Apakah sebabnja maka penduduk asli itu makin lama makin ber-kurang² djuga?
12. Apakah agamanja? Terangkanlah apa kepertjajaan agama ini!
13. Apa²kah sendjata mereka itu?
14. Teluk jang terpenting dibenua Australia ialah ..... jang dilingkungi oleh Tandjung ..... dan Tandjung ..... dan di Selatan Teluk .....
15. Menurut keadaannja, tanahnja dapat dibagi atas ..... bagian, jaitu: 1) ....., 2) ....., 3) .....
16. Sebutkanlah 2 buah pergunungan jang penting, 2 batang sungai dan sebuah danau, jang terkenal!
17. Selandia Baru terdiri dari 2 buah pulau, jaitu .....; ibunegerinja .....
18. Pemerintahan Australia terbagi atas 6 daerah, jang masing²-nja mempunjai Kabinet dan Parlemen sendiri, jaitu:
    1) ....., ibukotanja .....
    2) ....., „ .....
    3) ....., „ .....
    4) ....., „ .....
    5) ....., „ .....
    6) ....., „ .....

19. Lain daripada itu ada lagi 3 daerah, jaitu:
    1) .....
    2) .....
    3) .....
20. Iklim dan turunnja hudjan di Australia sangat ber-beda². Terangkanlah perbedaan² itu dengan pendek!
21. Apakah namanja bunga jang aneh di Australia dan bagaimanakah keanehannja itu?
22. Sebutkanlah beberapa binatang jang aneh di Australia dengan keanehannja!
23. Ternak apakah jang terpenting di Australia dan untuk apakah orang menternakkan hewan itu?
24. Orang jang mempunjai biri² dinamai ..... Kebanjakan ..... mempunjai ± ..... ekor biri² dan ± ..... km² padang-rumput.
25. Apa²kah hasil-tambang di Australia?
26. Apa²kah jang di-import dari Australia ke Indonesia?
27. Apa²kah jang di-eksport dari Indonesia ke Australia?
28. Indonesia diperhubungkan dengan Australia oleh .....

IV. ICHTISAR ASIA TIMUR DAN SELATAN

A. Tetangga Indonesia.

Tetangga jang terdekat dengan Indonesia ialah Asia Timur dan Selatan.

Negara² atau daerah² jang masuk Asia Timur dan Selatan, ialah: 1. **Malaka/Singapura/Kalimantan Inggeris;** 2. **Birma;** 3. **Muang Thai;** 4. **Indo Tjina;** 5. **Filipina;** 6. **Tiongkok.** 7. **Djepang;** 8. **India;** 9. **Pakistan,** dll.

Dilihat pada hubungan tanahnja, pada warna kulit penduduknja, pada bentuk bangun²an aslinja, pada adat-istiadatnja jang banjak persamaannja, dll. Sesungguhnjalah negara² atau daerah² itu tetangga Indonesia jang terdekat.

B. Hubugan dengan Indonesia.

Sedjak zaman dahulukala Indonesia telah berhubungan rapat dengan negara² atau daerah² itu. Ingat sadjalah sedjarah kedatangan bangsa-bangsa itu ketanah air kita dahulukala dengan mengembangkan agamanja, kebudajaannja dll. sambil berniaga. Bangsa kitapun dizaman Sriwidjaja dan Modjopahit telah banjak mengundjungi negara² atau daerah² itu dan tinggal disitu.

Sekarang hubungan itu dipererat lagi oleh perhubungan ekonomi dan politik. Ingatlah Konperensi Asia-Afrika, jang dilahirkan di Bandung dan ingatlah saling-penanaman perwakilan dari kedua belah pihak [Negara[2] tetangga itu dengan Indonesia], jang selalu berusaha membela kepentingan bersama dalam lapangan ekonomi, politik dan kebudajaan.

Perhubungan lalulintas (laut dan udara) makin bertambah ramai djuga.

C. **L e t a k n j a.**

Asia Timur dan Selatan ini dilingkungi oleh:

1. **Lautan Teduh** [sebelah Timur].
2. **Lautan Hindia** [sebelah Selatan].
3. **Asia Utara (Siberia)** membatasi sebelah Utara.
4. **Asia Barat Daja** membatasi sebelah Barat.

Daerah ini amat luas dan terpenting karena kesuburannja, kekajaan alamnja dan rapat penduduknja.

D. **Keadaan alamnja.**

Sebagian besar Asia Timur dan Selatan terdiri dari tanah **dataran-tinggi** dan **Pegunugan** jang tinggi[2]. Pegunungan[2] jang termasjhur ialah:

Disebelah Timur: Peg. Tiongkok Utara dan **Peg. Tiongkok Selatan.**

Disebelah Barat: Peg. Kwen Lun dan **Peg. Himalaja.** Puntjaknja jang tertinggi bernama **Mount Everest** (8882 m). Diantara Peg. Kwen Lun dan Peg. Himalaja terdapat **Tanah-tinggi Tibet;** dari daerah inilah berasal sungai[2] jang terbesar dan terpandjang di Asia, misalnja **s. Hwang Ho** dan **s. Yang-tze,** jang kedua-duanja bermuara ke **Laut Kuning** (Laut Tiongkok Timur), **s. Mekong, s. Salween, s. Irawadi, s. Brahmaputra,** dan **s. Gangga,** jang pandjangnja ± 2600 km, jaitu **sungai sutji bagi orang Hindu.** Sungai[2] jang tersebut belakangan ini bermuara di Selatan di Teluk Benggala. Sebelah Utara dari Peg. Tiongkok Utara dan Peg. Kwen Lun terdapat **Gurun Gobi,** jaitu gurun-pasir se-mata[2].

E. **I k l i m.**

Daerah jang beriklim **musson** terletak ditepi Lautan Hindia dan Lautan Teduh. Disini banjak turun hudjan dari bulan April sampai bulan September, karena **angin-barat-daja** jang bertiup dalam bulan[2] itu banjak membawa uap-air-laut.

Daerah Asia Tengah; jang berdekatan dengan Gurun Gobi sangat kering hawanja. Perbedaan iklim dalam musim panas dan musim hudjan, begitu djuga perbedaan iklim antara siang dan malam sangat besar.

Iklim Asia Timur dan Selatan dapat dibagi atas:

1) Daerah jang **berhawa panas,** jang disebut **tropis,** ialah: India Selatan, Birma, Siam, Indo Tjina, Filipina dan Indonesia. Di-daerah² itu hampir² tidak terasa perubahan hawa bagi kita orang Indonesia; begitu djuga bagi mereka itu dinegeri kita.

2) Daerah jang **berhawa sedang,** jaitu daerah² dari Kanton sampai ke Peking dan kepulauan Djepang sebelah Selatan.
Di-daerah² ini ada musim sedjuk, jang tidak pernah terdjadi di Indonesia.

3) Daerah jang **berhawa dingin,** jaitu Tiongkok Utara dan Djepang Utara. Di-daerah² ini musim dingin bisa sangat dingin.

F. Penduduk.

Penduduk Asia Timur dan Selatan berdjumlah hampir $^1/_2$ penduduk dunia (± 1100 djuta), jang terdiri dari ber-bagai² „induk-bangsa", jang ber-lain²an pula bahasa, tulisan dan warna kulitnja.

Berkulit hitam bangsa **Dravida** di India.

Berkulit putih bangsa **Hindu.**

Berkulit kuning bangsa **Mongol,** jaitu Tionghoa, Djepang, bangsa²di Hindia Belakang.

Berkulit sawo bangsa Indonesia dan bangsa Filipina.

Daerah² jang rapat penduduknja ialah: Tiongkok, India, Djepang dan Indonesia, terutama Djawa.

G. Agama dan kebudajaan.

Agama jang dipeluk penduduknja jaitu **Islam, Brahma, Budha, Konghutju, Sjinto dll.** Kebudajaan jang tertua ialah **kebudajaan Tiongkok** dan **kebudajaan India.**

Banjaknja ummat Islam di-negeri² jang terpenting di Asia, ialah :

1. di Indonesia	± 70 djuta	11. di Jaman	± 3½ „
2. di Pakistan	± 67 „	12. di Syria	± 3 „
3. di Tiongkok	± 45 „	13. di Malaka & Singapura	± 3 „
4. di India	± 40 „	14. di Pilipina	± 1 „
5. di Turki	± 20½ „	15. di Birma	± 1 „
6. di Iran	± 17 „	16. di Jordania	± 1 „
7. di Sowjet Uni	± 13 „	17. di Libanon	± ½ „
8. di Afganistan	± 11 „	18. di Muang Thai	± ½ „
9. di Saudi Arabia	± 6 „	19. di Aden	± ½ „
10. di Irak	± 4 „	20. di Aman	± ½ „

H. Mata pentjaharian penduduk.

Sebagian besar penduduknja hidup dengan bertani (negara agraria).

Negara Djepang sangat madju perindusteriannja, sehingga dapat menjaingi negara² lain, karena upah buruhnja amat rendah dan karena itu hasil² perindusteriannja dapat didjual dengan harga murah pula.

Mengingat kembali.

1. Tetangga jang terdekat dengan Indonesia ialah ....., jaitu negara² atau daerah² .....
2. Hubungan² jang dapat menjatakan, bahwa Indonesia bertetangga dengan negara² atau daerah² itu ialah .....
3. Sedjak dahulu-kala telah ada djuga perhubungan antara negara² atau daerah² itu dan Indonesia, karena .....
4. Sedjak negara kita merdeka perhubungan kita dengan negara² atau daerah² itu dipererat lagi oleh .....
5. Jang membatasi Asia Timur dan Selatan ialah: ..... sebelah Timur: ..... sebelah Selatan: ..... sebelah Utara dan ..... sebelah Barat.
6. Sebutkanlah beberapa pegunungan jang termasjhur!
7. Puntjak pegunungan apakah jang tertinggi dan apakah nama puntjaknja itu?
8. Dari manakah sungai² jang terbesar berasal? Sebutkanlah sungai² itu!
9. Apakah namanja sungai sutji bagi orang Hindu dan berapakah pandjangnja sungai itu?

10. Adakah gurun-pasir di Asia Timur dan selatan? Apakah namanja gurun-pasir itu?
11. Menurut keadaan iklimnja Asia Timur dan Selatan dibagi orang atas 1)....., 2)..... 3).....
12. Agama[2] jang dipeluk oleh penduduknja ialah .....
13. Dimanakah jang terbanjak ummat Islam? Berapakah kira[2]?
14. Berapakah djumlah penduduk Asia Timur dan Selatan kira[2]?

V. MALAKA DAN SINGAPURA

A. Sedjarah pendeknja.

Kota Malaka dahulu didirikan oleh Paramesjwara pada tahun 1402. Keturunannja berkuasa sampai tahun 1509, jaitu diwaktu orang[2] Portugis mengalahkan Sultan Mahmud.

Dalam abad ke-16 Malaka mendjadi penting dalam lapangan politik dan perekonomian, sehingga ia dapat mempertahankan dirinja terhadap tekanan jang terus menerus dari Siam.

Malaka adalah koloni Inggeris. Dalam tahun 1948 diadakan oleh Pemerintah Inggeris satu **federasi** (daerah-serikat) untuk Malaka, jang ibukotanja **Kuala Lumpur.** Federasi itu terdiri dari 9 negara Melaju, jang beradja dan 2 bandar.

Negara[2] jang beradja itu ialah : 1. Selangor, 2. Perak, 3. Negeri Sembilan, 4. Pahang, 5. Johore, 6. Kedah, 7. Kelantan, 8. Trengganu, 9. Perlis.

Bandar jang 2 itu ialah Malacca dan Penang.

1. Malaka.

Malaka ialah Tanah Semenandjung antara Selat Malaka dan Lautan Tiongkok Selatan. Diudjung selatnja terletak pulau Singapura.

Luas Malaka adalah ± 155.000 km², kira[2] seperdua Sumatera. Penduduknja ± 5 djuta djiwa, terdiri dari separoh Tionghoa, ± sedjuta bangsa India, Sailan dan Eropah (kebanjakan Inggeris).

B. Hasil[2]nja.

Hasil[2] jang terpenting ialah timah, karet, emas dan kopra. Hasil timah dan karet Malaka itu adalah mendjadi saingan dari timah dan karet Indonesia. Hasil[2] itu dibawa ke Singapura dan diperniagakan disini.

2. Singapura.

Singapura, sebuah pulau dengan nama ibukota jang senama, terletak diudjung Semenandjung Malaka, jang dipisahkan dari Djohor oleh Selat Djohor. Singapura dipertemukan dengan semenandjung Malaka oleh sebuah djambatan jang pandjangnja ± 3/4 mil. (1 mil Belanda = 1000 m; 1 mil Djerman = 7420 m; 1 mil Inggeris = 1609 m).

Singapura mendapat kedudukan terasing dari Malaka. Pulau Singapura 26 mil pandjangnja, 14 mil lebarnja dan 220 mil-persegi luasnja.

Dahulukala bandar „Singapura" sekarang ini bernama **Tumasik.** Waktu itu bandar ini telah ramai djuga perhubungan dagangnja dengan negeri² diluar daerahnja, djadi telah mendjadi pusat-dagang besar djuga. Bandar Singapura sekarang dibuat oleh Pemerintah Inggeris, sedjak pemerintahan Raffles telah mendjadi bandar-perniagaan jang terbesar di Asia Tenggara. Djumlah penduduknja ± 750 000 djiwa, djadi kira-kira seramai Bandung. Diantara penduduk itu ada ± 450.000 orang Tionghoa dan 150.000 orang India. Penghidupan warga-negara asli terdesak. Singapura adalah pelabuhan bebas, karena itu barang² dari luar negeri dengan mudah masuk kesana dan sebab itu lebih murah pula harganja dari di Indonesia.

Segala dagang Sumatera, Kalimantan dan Malaka berpusat ke Singapura ini dan barang² dari Eropah singgah djuga kebandar ini untuk dikirim ke Australia, Indonesia dan Asia Timur.

Singapura adalah pula pangkalan Inggeris jang sangat kuat di Asia Tenggara. Dalam masa pendudukan Djepang nama Singapura ditukar dengan Syonan. Singapura adalah pusat perhubunpan-laut dan udara.

Karena Singapura sangat berdekatan dengan kepulauan Riau, maka harga barang² sangat murah dikepulawan ini, bila diperbandingan dengan di Indonesia kita. Perekonomian antara Singapura dan Riau jang sangat rapat perhubungannja itu menjebabkan sampai sekarang diperedarkan wang **dollar Singapura** dikepulauan Riau. Segala²nja, sampai gadji pegawai² R.I. dibajar dengan wang dollar, tidak dengan rupiah, wang R.I. sendiri. Oleh karena itu penempatan pegawai² R.I. dikepulauan Riau adalah berarti keuntungan jang besar bagi pegawai² itu. Banjak pegawai jang ingin ditempatkan dikepulauan Riau itu. Sampai sekarang Pemerintah belum berhasil dalam usahanja untuk mendaerah-rupiahkan kepulauan Riau. Ini adalah suatu hal jang aneh.

Untuk dapat masuk ke Singapura orang harus mempunjai **visa,** jaitu surat-izin dan untuk memperoleh visa itu harus dipenuhi beberapa sjarat.

VI. KALIMANTAN INGGERIS

Bagian Utara pulau Kalimantan dikuasai oleh Inggeris. Bagian ini terdiri dari 3 daerah, jaitu :

1. Serawak, ibunegerinja Kutjing.
2. Brunai, ibunegerinja Brunai.
3. Kalimantan Utara Inggeris, ibukotanja Jesselton.

Hasil²nja jang terpenting :

a. Minjaktanah, karet, beras, batubara, sagu dan lada dari Serawak.
b. Minjaktanah, beras, karet dan sagu dari Brunai.
c. Karet, beras dan kaju dari Kalimantan Utara Inggeris.

VII. BIRMA

A. Bentuk negaranja, luasnja, penduduknja, dll.

1. Bentuk negaranja : Republik.
2. Kepala Negara : Presiden.
3. Luasnja : ± 678.033 km² atau ± 5 x p. Djawa.
4. Penduduknja : ± 18.489.000 djiwa.
5. Benderanja : merah; disudut-kiri atas: bagian jang berwarna biru-tua, didalamnja sebuah bintang besar putih beruntjing dengan lima buah bintang jang agak ketjil diantara udjung²nja.
6. Ibunegerinja : Rangoon (501.000 djiwa).
7. Kesatuan mata-wang : rupi Birma.
8. Agama : sebagian besar Buddha (86%).

B. Letaknja.

Di India Belakang, berbatasan dengan India, Teluk Benggala Muang Thai dan Tiongkok.

C. Sedjarah pendeknja.

Sedjak 17 Oktober 1947 Republik Merdeka.
Penduduk asalnja mungkin berasal dari Asia Tengah. Radja²-nja jang pertama ialah orang jang beragama Budha, jang datang dari India. Sedjak abad ke-15 orang Portugis telah

menduduki beberapa bagian delta Irawady. Dalam abad ke-17 dan ke-18 datang pula orang² Inggeris dan Perantjis. Kemudian Inggeris memimpin Birma dalam gabungan dengan negara² jang dipimpin oleh Inggeris dan pada tanggal 17 Oktober 1947 keluarlah Birma dari gabungan jang dipimpin oleh Inggeris, lalu berdiri sendiri mendjadi republik.

D. **Keadaan tanahnja.**

Sebagian terbesar berimba-raja, jang banjak kaju-djatinja.
Disebelah Utara terdapat pegunungan-tinggi, sambungan pegunungan Himalaja.
Iklimnja iklim tropis [panas]; banjak turun hudjan dan karena itu subur tanahnja.

E. **Hasil²nja.**

Hasil pertanian jang terbanjak ialah beras, sehingga Birma kelebihan beras. Beras Birma di-eksport keluar negerinja, terutama ke Tiongkok, ke India, ke Djepang dan ke Indonesia. Birma adalah lumbung beras jang terbesar di Asia. Setiap tahun tak kurang di-eksport ± 3 djuta ton beras.
Hasil pertanian jang lain: teh, tembakau tebu, kajudjati, katjang, dll.
Hasil-tambangnja ialah: minjak-tanah, batubara, emas, tembaga dan timah-putih.

F. **Perhubungan dengan Indonesia.**

Setelah Birma dan Indonesia merdeka, maka perhubungan ekonomi, politik dan kebudajaan mendjadi pesat, karena pertukaran perwakilan dan Konperensi Asia-Afrika.

Mengingat kembali.

Malaka:

1. Pabilakah Malaka didirikan mula² sekali dan pabilakah berachir kekuasaan Sutlan Mahmud?
2. Siapakah jang mengalahkan Sultan Mahmud itu?
3. Bagaimanakah keadaan Malaka dalam abad ke-16?
4. Malaka adalah ..... Inggeris, jang berbentuk ....., jang terbagi atas 9 negara, jaitu .....
5. Ibukota Malaka ialah .....
6. Lain daripada 9 negara Melaju jang tersebut tadi ada lagi 2 bandar, jang masuk federasi djuga, jaitu .....
7. Luas Malaka adalah ± ..... Sumatera; penduduknja .....
8. Manakah jang banjak bangsa asli dengan bangsa² asing?
9. Bangsa² apakah bangsa² asing itu?
10. Apa²kah hasil Malaka jang terpenting?

Singapura:

1. Singapura ditjeraikan dari Djohor oleh ....., tetapi dipertemukan pula oleh .....; jang pandjangnja ..... mil.
2. Bagaimanakah kedudukan Singapura; disatukankah dengan Malaka?
3. Berapakah pandjangnja, lebarnja dan luasnja Singapura?
4. Siapakah jang membangun Singapura sekarang dan sedjak pabilakah bandar ini mendjadi bandar-perniagaan jang terbesar di Asia Tenggara?
5. Penduduknja adalah ± ..... djiwa: jang terbanjak ialah .....
6. Apakah sebabnja barang² luar negeri lebih banjak melalui Singapura dan apakah sebabnja harganja lebih murah daripada di Indonesia?
7. Dalam masa pendudukan Djepang nama Singapura ditukar dengan .....
8. Singapura berdekatan dengan ....., wilajah Republik Indonesia dan amat besar pengaruhnja dalam soal perekonomian.
   Terangkanlah pengaruhnja itu!
9. Dapatkah kita dengan mudah masuk dan tinggal di Singapura?
10. Apakah jang diperlukan untuk dapat masuk ke Singapura?

Kalimantan Inggeris:

1. Bagian Kalimantan Utara, jang dikuasai oleh Inggeris terdiri dari ..... daerah, jaitu: .....
2. Sebutkanlah hasil² jang terpenting dari tiap² daerah itu!

Birma:

1. Birma adalah sebuah _____ (bentuk pemerintahannja) dan dikepalai oleh _____
2. Penduduknja adalah ± ..... dari penduduk Indonesia; ibunegerinja .....; kesatuan wangnja bernama _____; agamanja _____
3. Penduduknja asli Birma mungkin berasal dari ..... Sedjak abad ..... orang Portugis telah menduduki beberapa bagian delta ..... dan dalam abad ke ..... dan ke ..... datang pula orang² .....

4. Kemudian Birma dipimpin oleh Inggeris dalam ..... dengan negara² lain dan pada ..... keluarlah Birma dari ..... itu, sehingga mendjadi republik.
5. Bagaimanakah keadaan tanahnja ?
6. Apakah hasil-pertaniannja jang terbanjak dan kemanakah di-eksport hasil itu ?
7. Sebutkanlah hasil² pertanian jang lain dan hasil-tambangnja !
8. Tjeriterakanlah tentang perhubungan Indonesia dengan Birma !

VIII. MUANG THAI (SIAM)

A. Bentuk negaranja, luasnja, penduduknja, dll.

1. Bentuk negaranja : Keradjaan, jang mempunjai Undang² dasar.
2. Kepala Negara : Radja.
3. Luasnja : ± 513.521 km² atau ± 4 kali pulau Djawa.
4. Penduduknja : ± 18.313.000 djiwa.
5. Benderanja : Merah. putih, biru, putih, merah (mendatar).
6. Ibukotanja : Bangkok (1.117.000 djiwa).
7. Mata-wang : Baht atau Tical.

B. Letaknja.

Di India Belakang, berbatas dengan Birma, Indo Tjina, Malaka, Teluk Benggala dan Teluk Siam.

C. Sedjarah-penduduknja, bahasanja, kebudajaannja, dll.

Sedjarahnja sedjak tahun 1350 dapat dibagi mendjadi dua zaman, jaitu :

1) **Zaman keluarga radja² Ayuthya dari 1350—1767.**

2) **Zaman keluarga radja² Bangkok dari 1782.**

Bahasanja ialah **bahasa Siam,** jang ber-matjam² **dialeknja** (sebutannja). Dialek² itu merupakan golongan² bahasa Thai, jang termasuk rumpun-bahasa Tibet-Tionghoa.

Penduduknja terdiri dari : bangsa² Thai, Tionghoa, Lao, Melaju, Cambodja, Annam, Mon, Karen, Sjan dan Birma. Bangsa Kulitputih banjak djuga berdiam di Muang Thai.

Kebudajaannja dipengaruhi oleh Kebudajaan India.

D. **Keadaan tanahnja dan iklimnja.**

Bagian Utara ber-gunung² dan ber-hutan² lebat; bagian Barat dataran-rendah, jang diairi oleh **sungai Menam;** dibagian Timur terdapat suatu dataran-tinggi dan bagian Selatan dataran **alluvium** (alluvium = tanah² jang dihanjutkan air, jaitu tanah jang datang kemudian). Umumnja tanahnja subur.

Iklimnja ialah tropis.

E. **Hasil²nja.**

Jang terutama dan terbanjak ialah **beras.** Beras Siam masjhur diseluruh dunia dan banjak di-eksport keluar negeri; begitu djuga ikan.

Hasil² jang lain: kelapa, tembakau, lada dan kapas. Hutan² banjak menghasilkan kajudjati. Perkebunan karet mulai madju dibagian Selatan dan Timur.

Tanahnja mengandung timah, **wolfram** [sebangsa logam, jang tahan panas, dipakai dalam bola lampu-lesterik] dan pelikan² lain.

F. **Perhubungan dengan Indonesia.**

Perhubungan ekonomi, politik dan kebudajaan makin diperpesat dengan pertukaran perwakilan dan menurut putusan Konperensi Asia-Afrika.

IX. INDO TJINA

A. **Bentuk negaranja, luasnja, pemerintahannja, dll.**

Jang masuk Indo Tjina ada 3 bagian, jang ber-lain²an bentuk negaranja. Indo Tjina adalah daerah jang diperlindungi Perantjis, tetapi dalam waktu jang belakangan ini terdjadi pergolakan antara negara² bagian itu dengan Pemerintah Perantjis, jang mengakibatkan Vietnam terpetjah dua.

Pembagian semula :

1. Republik Vietnam, jang terdiri dari gabungan Tonkin, Annam dan Cochin China. Kepala negaranja Presiden.
2. Keradjaan Kambodja, Kepala negaranja Radja.
3. Keradjaan Laos, Kepala negaranja Radja.

Pembagian sekarang (masih dalam pergolakan) :

1. Republik Demokrasi Vietnam [Utara], penduduknja ± 9.851.000 djiwa; ibukotanja **Hanoi.**
2. Negara Vietnam [Selatan], pendukuknja ± 5.579.000 djiwa; ibukotanja **Saigon.**

3. Keradjaan Cambodja, penduduknja ± 3.227.000 djiwa; ibukotanja **Phnom Penh.**

4. Keradjaan Laos, penduduknja ± 1.189.000 djiwa; ibukotanja **Vientiane.**

Republik Demokrasi Vietnam [Utara] itulah jang tidak ingin lagi berdiri dibawah perlindungan Perantjis. Pemimpinnja bernama **Ho Chi Minh** dan karena itu republik itu disebut djuga **Republik Demokrasi Vietminh.**

B. Penduduknja.

Penduduknja seketurunan dengan orang Muang Thai dan Siam, jaitu keturunan orang Mongol; agamanja Budha.

Peradabannja telah tinggi djuga sedjak beribu tahun jang lalu.

Di Cambodja masih banjak kedapatan seni-bangun²an lama, jang mengagumkan. Dari daerah inilah bangsa Indonesia berasal.

C. Keadaan tanahnja.

Disini banjak turun hudjan dan karena itu tanahnja subur dan berhutan lebat.

Dibagian Utara terdapat tanah-pegunungan, jang membudjur keselatan sampai ke Cochin China. Bagian jang lain merupakan dataran-rendah, dalam lingkungan aliran s. Mekong jang luas dan delta Tonkin.

D. Hasil²nja.

Jang terpenting dan ber-lebih²an ialah beras. Banjak beras di-eksport dari pelabuhan Saigon dan Tonkin keluar negeri. Hasil² jang lain: karet, teh, lada, batubara, djagung dan ikan.

E. Perhubungan dengan Indonesia.

Zaman dahulu rapat perhubungannja dengan Indonesia, tetapi sampai dewasa ini belum ada pertukaran perwakilan, karena pergolakan di-negara² itu belum reda djuga. Dalam pada itu waktu Konperensi Asia-Afrika keempat negara itu ada mengirim wakilnja masing² dan ini dapat diartikan, bahwa perhubungan Indonesia dengan negara² itu akan mendjadi rapat dan erat.

Mengingat kembali.

Muang Thai (Siam):

1. Muang Thai adalah sebuah ....., jang mempunjai Undang²-dasar. Oleh sebab itu Kepala Negaranja ialah .....
2. Luasnja ± .....x Pulau Djawa dan penduduknja- ± ..... dari penduduk Indonesia.
3. Ibukotanja ....., jang berpenduduk lebih dari- .....
4. Mata-wang kesatuannja ialah .....
5. Dimanakah letaknja Muang Thai dan apa²kah jang membatasinja (melingkunginja)?
6. Setjara pendek sedjarahnja dapat dibagi mendjadi 2 bahagian, jaitu:
   1. Dari tahun 1350 — 1767 dinamai zaman .....
   2. Dari tahnu 1782 — dinamai zaman .....
7. Tjeriterakanlah tentang bahasanja !
8. Penduduknja terdiri dari bangsa² : .....
9. Bagaimanakah kebudajaannja ? .....
10. Bagian manakah tanahnja jang ber-gunung² dan bagian manakah dataran-rendah ?
11. Dibagian Selatan terdapat dataran **alluvium.** Tanah jang bagaimanakah, jang dikatakan alluvium ?
12. Bagaimanakah iklimnja ?
13. Apakah hasilnja jang terbanjak dan apa²kah hasil jang lain ?
14. Ada djuga tanah jang mengandung wolfram, jaitu .....
15. Apakah buktinja, bahwa antara Indonesia dan Muang Thai telah ada perhubungan ekonomi, politik dan kebudajaan ?

Indo Tjina:

1. Bagaimanakah pembagian Indo Tjina sekarang ?
2. Bagian manakah jang repolosioner dan siapakah pemimpin nja ?

3. Sebutkanlah ibu-negeri :
   a. Keradjaan Laos !
   b. Negara Vietnam !
   c. Keradjaan Cambodja !
   d. Republik Demokrasi Vietnam !
4. Penduduk Indo Tjina ialah keturunan.....; agamanja .....
5. Dari manakah asal bangsa Indonesia ?
6. Apakah hasilnja jang terpenting dan dimanakah di-eksport hasil itu ?
7. Apa²kah lagi hasil jang lain ?
8. Apakah sebabnja antara negara kita dan Indo Tjina belum ada pertukaran perwakilan ?

X. FILIPINA

A. Bentuk negaranja, luasnja, penduduknja, dll.

1. Bentuk negaranja : Republik.
2. Kepala Negara : Presiden.
3. Luasnja : ± 299.404 km² [kurang dari Sumatera].
4. Penduduknja : ± 20.631.000 djiwa.
5. Benderanja : Biru-merah [mendatar] dengan dikiri segitiga, didalamnja segitiga ini matahari-mas dan 3 bintang-mas.
6. Ibunegerinja : Manila (± 1.025.000 djiwa).
7. Mata-wang : Peso.
8. Agama : ± 80% Katolik Rum, ± 10% Geredja Filipina Merdeka, ± 5% Islam.

B. Sedjarah-pendeknja.

a. Tahun ± 800 — 1377 Filipina dalam lingkungan pengaruh Sriwidjaja.

b. Tahun ± 1380 Filipina dalam lingkungan pengaruh Modjopahit.

c. Sampai tahun 1898 Filipina dibawah kekuasaan Sepanjol. Nama Filipina adalah menurut nama Radja Sepanjol, jang bernama Philips II.

d. Dari tahun 1898 — 1946 Filipina dibawah djadjahan Amerika dan pada **4 Djuli 1946 Filipina mendapat kemerdekaan jang sepenuhnja dari Amerika.**

Pahlawan Filipina ialah **Joze Rizal,** lahir 19 Djuni 1861 dan dihukum mati 30 Desember 1896, karena mengadakan repolusi dibawah pimpinan **Bonifacio.**

C. **Penduduknja.**

Penduduk-aslinja dinamai oleh orang Sepanjol **Negrito,** jang berarti orang Negro-ketjil. Orang Sepanjol menjamakan penduduk-asli Filipina itu dengan bangsa Negro di Afrika. Penduduk Filipina orang Negrito itu disebut djuga orang **Ajita** atau **Aeta.** Perawakannja kerdil, tjara hidupnja **primitif** (sangat sederhana sekali), mereka itu pemburu, mengumpul hasil[2] dan barang[2] dalam hutan dan tidak mempunjai tempat jang tetap.

Penduduk jang madju di-kota[2] besar ialah penduduk jang berasal dari Indonesia, Semenandjung dan keturunan orang Sepanjol, djadi bukan bangsa asli, Ajita itu.
Bangsa Negrito itu tidak mau beristeri lebih dari satu, tetapi ada adatnja jang aneh.

Bila seorang Ajita hendak kawin, maka dipinangnjalah bakal isterinja kepada orang tuanja. Kalau orang-tua gadis itu menerima pinangan pemuda itu, maka orang-tua itu mengirimkan anak-gadisnja itu kedalam hutan sebelum matahari terbenam. Sipemuda mengikuti sigadis dari belakang dan mentjari tunangannja ini. Djika ia dapat menangkap gadis itu dan pulang sebelum matahari terbit, maka berartilah, bahwa mereka akan mendjadi suami-isteri dan bila tidak dapat ia menangkap sigadis itu, maka pinangannja tadi dibatalkan.

Bahasa jang terpakai di Filipina ber-matjam[2], tetapi bahasa persatuannja ialah bahasa **Tagalog,** bahasa jang sekeluarga dengan bahasa Indonesia. Bahasa Barat jang banjak dipakai ialah bahasa Sepanjol dan bahasa Inggeris.

D. **Pulau[2]nja.**

Kepulauan Filipina terdiri dari lebih 7000 buah pulau[2], besar ketjil. Pulau[2] jang terbesar ialah: **p. Luzon, p. Mindanao, p. Leyte.**

Kepulauan Filipina dilingkungi oleh Lautan Teduh, Laut Tiongkok Selatan, Laut Sulu dan Laut Sulawesi.

E. **Iklimnja dan keadaan alamnja.**

Iklimnja tropis. Hudjan banjak turun di Filipina. Gunung[2]-nja banjak jang berapi. Biasa sekali setahun, Filipina dapat serangan dari angin topan.

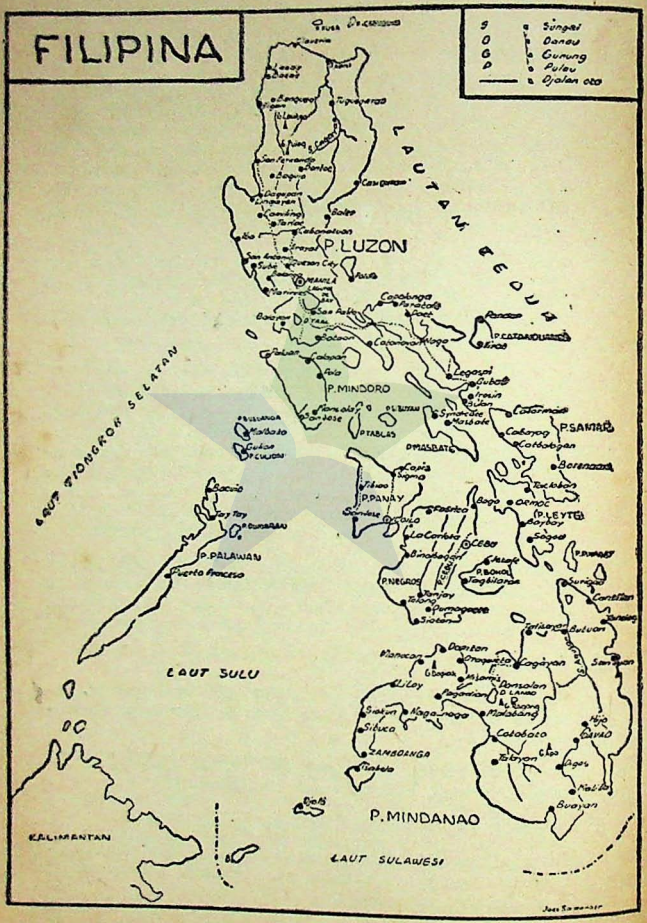
FILIPINA
S O G O D
Sungai
Danau
Gunung
Pulau
Djalan dll
LAUT TIONGKOK SELATAN
LAUT SULU
LAUT SULAWESI
P. LUZON
P. MINDORO
P. PALAWAN
P. MINDANAO
KALIMANTAN

F. **Hasil²nja.**

a. Hasil pertanian: sawah²nja banjak menghasilkan padi; disana-sini tedapat perkebunan tebu besar².
b. Hasil² bumi jang lain: manila-hennep (untuk didjadikan tali), djagung, tembakau dan kelapa.
c. Hasil² hutan: kaju, rotan, getah dan damar.
d. Hasil² tambang (pelikan): besi, emas, perak, tembaga, platina, timah-sari, minjak tanah, garam-batu kaolin, gips, batu-arang.

Perhubungan-dagangnja ramai dengan Amerika Serikat, Djepang, Tiongkok, Djerman, Inggeris, Perantjis, Sepanjol dan Indonesia.

G. **Perhubungan dengan Indonesia.**

Perhubungan ekonomi, politik dan kebudajaan diperpesat dengan pertukaran perwakilan antara kedua negara dan dalam Komperensi Asia-Afrika.

Mengingat kembali.

1. Kepulauan Filipina, jang terdiri dari _____ pulau, besar ketjil, adalah sebuah _____ Kepala negaranja _____

Luasnja _____ dari pulau Sumatera dan penduduknja adalah ± _____ kali penduduk Sumatera. Ibu-negrinja _____, jang mempunjai pendududuk _____
Agama penduduknja _____

2. Sedjarah-pendek Filipina dapat kita bagi atas 3 masa, jaitu:

a. Dalam lingkungan pengaruh Indonesia, jakni:
   1. Tahun ± 800 — 1337 dalam lingkungan pengaruh _____
   2. Tahun ± 1380 dalam lingkungan pengaruh _____

b. Sampai tahun 1898 Filipina _____ dan namanja itu adalah menurut nama _____

c. Dari tahun 1898 — 1946 Filipina _____ dan pada tanggal _____ Filipina mendapat kemerdekaan jang sepenuhnja dari _____

3. Pahlawan Filipina jang termasjhur ialah _____ dilahirkan _____ dan tanggal _____ dihukum mati, karena _____

4. Penduduk asli Filipina bernama ....., tetapi orang Sepanjol menamainja .....
5. Tjeriterakanlah hal-keadaan penduduk asli itu: djuga adatnja jang aneh !
6. Bahasa apakah bahasa-kesatuan bangsa Filipina dan bahasa asing jang manakah jang banjak dipakai oleh penduduk jang terpeladjar ?
7. Penduduk Filipina jang memegang peranan jang penting dalam segala lapangan-kemadjuan disana ialah :
8. Sebutkanlah pulau² jang terpenting !
9. Bagaimanakah keadaan Filipina (iklimnja, keadaan tanahnja, dll.) ?
10. Sebutkanlah hasil² Filipina !
11. Dengan negara² jang manakah jang ramai perhubungan Filipina dalam perdagangan ?

XI. TIONGKOK

A. Keadaan Tiongkok.

Tiongkok adalah negara jang luasnja ± 9 x Sumatera dan mempunjai penduduk ± 461 djuta djiwa.

Letaknja antara Korea, Sovjet Rusia-Siberia, Tibet-India (peg. Himalaya), Vietnam. Dari Filipina, Tiongkok dipisahkan oleh Laut Tiongkok.

Selama 40 tahun tidak ber-henti²nja peperangan-saudara di Tiongkok jang luas itu. Sesudah Keradjaaan Tiongkok dihapuskan dalam tahun 1912, maka Tiongkok mendjadi republik. Sesudah wafatnja **Presiden Dr. Sun Yat Sen,** ia digantikan oleh **Tsjiang Kai Shek** dengan pangkat **Generalismo,** jaitu panglima-perang tertinggi.

Sedjak permulaan tahun 1949 kekuasaan Generalismo Tsjiang Kai Shek itu dirubuhkan oleh **partai Kung Chang Tang,** dibawah pimpinan **Mao Tse Tung.** Partai Tsjiang Kai Shek ialah **Kwo Min Tang.** Demikianlah sampai sekarang terdjadi pergolakan antara partai Kung Chang Tang dan partai Kwo Min Tang. Dalam pergolakan ini partai Kung Chang Tang telah memperoleh kemenangan besar, sehingga pengaruh partai Kwo Min Tang telah terbatas sekali.

Partai jang berkuasa inilah jang kita sebut R.R.T. (Republik Rakjat Tiongkok). Kwo Min Tang mendapat sokongan dari Amerika Serikat dan R. R. T. dari Sovjet Rusia.

Lain daripada perang saudara, Tiongkok berperang pula berpuluh tahun lamanja dengan Djepang. Karena ber-matjam² penderitaan, jang dialami bangsa Tiong Hoa ber-puluh² tahun, maka bangsa itu mendjadi bangsa jang tabah dan giat dalam segala usahanja.

B. Pembagian Tiongkok.

Tiongkok dibagi orang atas :

1. **Tiongkok Utara.**
2. **Tiongkok Selatan.**

Daerah Tiongkok Utara ber-gunung². Lembahnja telah banjak ditutupi oleh **tanah loss,** jaitu tanah jang subur. Tanah ini asalnja ialah tanah jang diterbangkan angin dari padang Gurun Gobi dan djatuh menimbuni lembah², sebab tertahan oleh tumbuh²an.

Disini mengalir s. Hoang Ho (= s. Kuning).

Dataran-rendah Tiongkok terdjadi dari tanah², jang dihanjutkan sungai² dari tanah loss tadi.

Pegunungan Tiongkok Selatan terdjadi dari leretan pegunungan. S. Jang Tse Kiang memperhubungkan lembah² diantara leretan pegunungan itu. Didaerah ini s. Jang Tse Kiang itulah jang mendjadi perhubungan jang terpenting, karena dapat dilajari dengan kapal² ketjil sampai 3000 km kehulunja.

C. Iklimnja.

Tiongkok beriklim musim. Dalam musim panas berembus angin dari laut, jang banjak membawa uap-air. Maka turunlah hudjan jang amat banjak. Dalam musim dingin berembuslah angin-darat dari tempat jang amat dingin. Sebab itu hawa mendjadi amat dingin.

D. Hasil²nja.

Barang² jang di-eksport: minjak-tung, kain-kasar, sutera, wolfram, timah, katjang, minjak-katjang, bulu-babi, teh, benang, barang² tembikar, dll.

Djuga telah banjak barang² tekstil dan hasil² fabrik jang lain, jang di-eksport keluar negeri.

Dari Indonesia di-importnja minjak-tanah, benzine, gula, karet, tapioca, sarang burung, tripang, tjumi², dll.

Bagian jang terbesar dari penduduk Tiongkok hidup dari hasil-pertaniannja. Karena penduduknja amat banjak, maka

tanah-persawahan atau perladangan tidak mentjukupi. Tanah² itu menghasilkan padi, gandum, katjang-kedele. Makanan jang utama ialah nasi.

E. Kota² jang terpenting.

Ibukota Tiongkok ialah **Peking.** Disini ada perwakilan negara kita.

Kota² jang lain: **Nanking,** ditepi s. Jang Tse Kiang dengan pelabuhannja **Shanghai** kota industri; **Honkow** dan **Tjungking** (dulu ibukota) terletak sebelah Baratnja. Sebelah Selatan ada kota²: **Kanton, Hongkong** (dibawah kekuasaan Inggeris), **Macao** (dibawah kekuasaan Portugis). Di Mansjuria (dahulu dibawah pengaruh Djepang) terletak kota²: **Mukden, Harbin** dan di Tibet: **Lhasa.**

F. Tiongkok dengan kebudajaannja dan agamanja.

Kebudajaan Tiongkok adalah kebudajaan jang sangat tua. Bangsa ini mempunjai huruf sendiri, jang terdiri dari beribu² (±30.000) tanda². Huruf² Tiong Hoa banjak benar persamaannja dengan huruf² Djepang. Dalam banjak soal, orang Tiong Hoa mengerti akan maksud tulisan Djepang, demikian djuga sebaliknja. Boleh dikatakan: tanda² dan masud tulisan sama, tetapi batjaannja menurut bahasa masing². Peninggalan kebudajaan-lama jang merupakan bangunan, ialah tembok-besarnja (di Tiongkok Utara), jang pandjangnja 2450 km dan dibuat 300 tahun sebelum Nabi Isa. Tembok ini dibuat untuk melindungi mereka dari serangan² musuh.

Di Tiongkok boleh dikata terdapat segala agama jang ada didunia ini, tetapi jang terbanjak dianut bangsa Tiong Hoa ialah agama **Budha, Konghutju** dan **Taoisme.** Orang Tiong Hoa jang beragama Islam ada antara 40 — 50 djuta djiwa dengan mesdjid ± 42.000. Katolik ± 3 djuta Kristen Protestan ± 1 djuta.

G. Bangsa Tiong Hoa orang perantau.

Bangsa Tiong Hoa merantau ke-mana² sadja diseluruh dunia ini. Di-daerah² perantauannja mereka itu berpengaruh dalam perekonomian. Tidak ada suatu djuga pekerdjaan jang tak dapat dikerdjakannja karena radjinnja, giatnja dan tabahnja.

Di Indonesia diam ± 2½ djuta orang Tiong Hoa; di Malaya ± 2½ djuta; di Muang Thai ± ½ djuta; dipulau² di Pasifik (Lautan Teduh), di-benua² lain, tidak sedikit djumlah nja orang Tiong Hoa.

Djumlah orang Tionghoa semuanja, jang berdiam diluar Tiongkok ada ± 15 djuta djiwa, jang sebagian besar adalah **patriot** tanah-airnja (patriot = orang jang bersetia pada tanah airnja dan bangsanja).

H. Perhubungan Indonesia dengan Tiongkok.

Dalam kitab² kuno bangsa Tiong Hoa, bahkan dalam tambo Alam Minangkabau, ada ditjeriterakan, bahwa dalam abad jang ke-5 telah ada perhubungan-dagang antara radja² Indonesia dengan Tiongkok.

Dalam zaman Sriwidjaja, lebih 1000 tahun jang lampau telah ada orang Tiong Hoa sebagai mahasiswa di Perguruan Tinggi di Palembang mempeladjari bahasa Sanskrit.

Perhubungan jang sedjak dahulu itu melahirkan pula peranakan Tiong Hoa, jang dapat bergaul dengan bangsa Indonesia dengan baik. Dewasa ini telah banjak orang Tiong Hoa peranakan, jang mendjadi warganegara Indonesia.

Pertukaran perwakilan antara Indonesia dan Tiongkok dan bersatunja bangsa² Asia-Afrika dalam Konperensi A-A di Bandung tahun 1955 menambah eratnja lagi perhubungan ekonomi, politik dan kebudajaan antara kedua negara ini.

Mengingat kembali.

1. Negara Tiongkok luasnja adalah ± ..... X Sumatera dan mempunjai penduduk ± ..... djiwa.
2. Negara² jang berbatasan dengan Tiongkok ialah .....
3. Laut ..... memisahkan Tiongkok dari Filipina.
4. Keradjaan Tiongkok dihapuskan dalam tahun ..... dan sedjak itu mendjadi .....
5. Presiden Tiongkok jang pertama ialah .....; sesudah wafat ia digantikan oleh ....., jang berpangkat ....., jang artinja .....
6. Negara Tiongkok dikuasai oleh 2 partai, jaitu partai, jang dipimpin oleh Tsjiang Kai Shek, bernama ..... dan partai, jang dipimpin oleh ....., bernama .....
7. Partai jang beroleh kemenangan besar ialah .....; partai ini dibantu oleh ....., sedangkan partai ..... dibantu oleh .....
8. Apakah sebabnja bangsa Tiong Hoa tabah dan giat dalam segala usahanja ?

9. Sungai apakah jang mendjadi perhubungan lalu-lintas jang terpenting didaerah Tiongkok Selatan ?
10. Tiongkok beriklim musim. Terangkanlah, apa maksudnja itu ?
11. Sebutkanlah barang² jang di-eksport !
12. Apa²kah jang diimport Tiongkok dari Indonesia ?
13. Apa²kah hasil-pertanian Tiongkok jang terpenting ?
14. Sebutkanlah kota² jang terpenting !
15. Kota apakah „kota-industri" ?
16. Sebutkanlah kota² jang dikuasai oleh bangsa² asing !
17. Apakah peninggalan kebudajaan-lama, jang merupakan bangunan ?
18. Apakah gunanja _____ itu dan pabilakah dibangun ?
19. Bangsa Tiong Hoa adalah satu bangsa jang suka merantau. Ada berapakah djumlahnja kira² orang Tiong Hoa jang merantau diseluruh dunia ?
20. Apakah artinja : perantau² Tiong Hoa adalah orang² patriot ?
21. Tjeriterakanlah sedikit tentang perhubungan Tiongkok dengan Indonesia.
22. Apakah jang mempererat lagi perhubungan Tiongkok dengan Indonesia ?

XII. DJEPANG (DAI NIPPON)

A. Bentuk negaranja, luasnja, penduduknja, dll.

1. Bentuk negaranja : Kekaisaran (kemaharadjaan).
2. Kepala Negara : Kaisar. Sedjak 1926 Hirohito.
3. Luasnja : ± 381.269 km² (± $^1/_2$ Kelimantan).
4. Penduduknja ± 85.000.000 djiwa.
5. Benderanja : Putih dengan matahari merah ditengah².
6. Lambang negara : Bunga chrysanthemum berwarna emas.
7. Ibu-negerinja : Tokio ± : 8.000.000) djiwa.
8. Kesatuan mata-wang : Yen
9. Agama : Sjinto dan Budha.

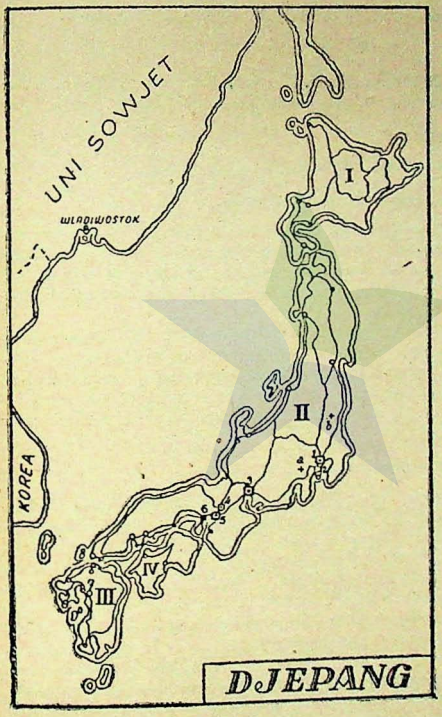

DJEPANG

I. Pulau Jesso
II. „ Hondo
III. „ Kyu Syu
IV. „ Sjikoku

1. Tokio
2. Yokohama
3. Nagoya
4. Kyoto
5. Osaka
6. Kobe
7. Nagasaki
8. Akamagaseki
9. Hakodate

a. Gunung Fudji
b. Gunung Bandai

B. **Letaknja, pulau²nja, kota²nja dan gunung²nja.**

Sebelah Timur benua Asia, dikelilingi Lautan Teduh, Lautan Tiongkok Timur dan Lautan Djepang.

Pulau² jang terpenting :

1. P. Jesso, 2. P. Hondo, 3. P. Kyu Sju, 4. Sjikoku.

Kota²nja :

1. Tokio 2. Yokohama, 3. Nagoya, 4 Kyoto, 5. Osaka, 6. Kobe, 7. Nagasaki, 8. Akamagaseki, 9. Hokodate.

Gunung²nja :

a. G. Fudji, b. G. Bandai.

C. **Keadaan tanahnja dan iklimnja.**

Semua pulau² Djepang ber-gunung². Ada 192 buah gunung-api, diantaranja 58 buah masih hidup. Djepang atjapkali mengalami gempa-keras dan bahaja bandjir serta topan. Bentjana alam jang tiga matjam itulah jang ber-ganti² merusakkan Djepang.

Iklimnja ialah iklim-musim. Angin musim Tenggara berembus dalam musim panas dan banjak membawa hudjan. Dalam musim dingin dipantai Barat lebih banjak turun hudjan daripada di Tiongkok. Tanahnja subur. Sawah² ditanami 2 á 3 kali setahun, tetapi tidak tjukup djuga untuk keperluan penduduknja.

D. **Sedjarah-pendeknja.**

Menurut kepertjajaan bangsa Djepang, Maharadjanja (= Mikado = Tenno Heika) adalah keturunan Dewi Matahari. Oleh sebab itu bangsa Djepang sangat menghormati arwah nenek mojangnja. Kepertjajaan inilah jang mendjadi dasar agamanja, jang disebut **sjinto.** Agama Buddha adalah agama jang datang dari Tiongkok dan Korea ke Djepang.

Djepang mendjadi kuat dan modern mulai zaman Meidji, jaitu 1867 — 1912. Deradjatnja naik ketika Rusia dikalahkannja dalam tahun 1905. Sesudah perang-dunia jang pertama kekuasaan Djepang menghebat : **kaum-modal-besar, kaum-feodal (kaum bangsawan)** dan **kaum-ketentaraan** menguasai seluruh rakjat. Oleh sebab itu timbullah nafsu hendak menguasai seluruh Asia dan bila ini tertjapai, maka menurut taksiran Djepang akan terbentuklah **Asia Timur Raja** dibawah pimpinan Dai Nippon.

Dalam perang dunia jang kedua, pada tahun 1942 — 1945 Djepang mendapat kemenangan jang terbesar, tetapi pada pertengahan tahun 1945 terpaksa menjerah, sebagai akibat dihantjurkannja Hiroshima oleh bom-atom Amerika Serikat. Waktu pendudukan Amerika di Djepang, bangsa Djepang dibawa oleh Amerika kearah pemerintahan Demokrasi. Karena itu Djepang-sekarang bukan Djepang-dahulu lagi. Ketaatan kepada golongan-bangsawan telah berkurang.

E. **Penduduknja dan kemadjuannja.**

Bangsa Djepang masuk bangsa **Mongol**. Agamanja Sjinto dan Buddha. Dan ada djuga orang Djepang jang menganut agama Nasrani dan Islam.

Kemadjuannja amat tjepat dalam segala lapangan.

1) **Kemadjuan-pertanian diperoleh dengan djalan:**

a. mendirikan sekolah² pertanian.
b. memberikan penerangan² tentang pertanian.
c. membuat irigasi (pengairan).
d. menggiatkan pemakaian pupuk-buatan, karena peternakan kurang.
e. mengadakan bibit² jang baik.

Selain daripada padi jang tidak mentjukupi, ditanam djuga gandum, teh dan soja.

2) **Kemadjuan perindusterian diperoleh dengan djalan:**

a. menggiatkan usaha memelihara ulat-sutera.
b. mendirikan fabrik² jang modern untuk tjontoh.
c. membantu orang² jang mempunjai perusahaan dengan modal.
d. memunqut tjukai jang tinggi atas barang² industri luar-negeri untuk membatasi import.
e. mendirikan sekolah² teknik tingkatan rendah, menengah dan tinggi.

Barang² perindusterian Djepang di-eksport keseluruh Asia Timur dan Selatan.

Harganja djauh lebih murah daripada barang² perindusterian negara² lain, karena:

1. Upah buruhnja rendah, sebab penghidupan di Djepang murah. Buruhnja banjak perempuan dan anak² gadis dari kampung², jang mendapat pemondokan dari fabrik.

2. Mesin²nja sederhana dan tidak memerlukan perongkosan besar sebagai mesin² Eropah, Amerika, dll.
3. Upah membawa barang² ke Asia Timur dan Selatan murah, sebab berdekatan dengan Djepang.
4. Tjara pendjualan barang² diatur se-baik²nja.
5. Pengangkutan barang² dilakukan dengan kapal² Djepang sendiri.

3) **Perusahaan² lain.**

1. Perusahaan sutera dan sutera-tiruan sangat madju : no. 2 diseluruh dunia.
2. Hasil industri jang lain: kertas, korek-api, tembikar, obat², semen, permainan anak², dll.

Eksport Djepang kebanjakan diangkut dengan kapal² dari kongsi² perkapalan Djepang sendiri, misalnja **Nippon Jusen Kaisja** dan **Osaka Sjusen Kaisja.**

Import ke Djepang: **kapas** dari Amerika Serikat, Tiongkok dan India; **besi-tua, batubara, minjak, getah** dan bahan² makanan sebagai **beras** dan **gula** dari negara² lain.

F. Kota²nja jang terpenting.

1. **Tokio** (± 8 djuta djiwa) ibunegerinja Djepang, banjak mengalami gempa. Kota ini adalah kota jang ke-2 didunia.
2. **Jokohama** (± 1 djuta djiwa), pelabuhan kota Tokio, jaitu pelabuhan jang terbesar di Djepang. Disini ada bermatjam² fabrik,
3. **Nagoya** (± $1^1/_2$ djuta djiwa), kota fabrik² kain, lak, barang² petjah-belah, dll.
4. **Kyoto** (1 djuta djiwa), dulu ibunegeri Djepang, pusat ilmu-pengetahuan.
5. **Osaka** (± 3 djuta djiwa), kota jang ke-2 di Djepang, pusat perusahaan kapas.
6. **Kobe** (± 1 djuta djiwa), kota perdagangan jang ramai.
7. **Nagasaki** (± $^1/_4$ djuta djiwa) dipulau Kyu Syu, pelabuhan perdagangan dengan industri-kapasnja dan pusat angkatan perang.
8. **Akamagaseki,** pelabuhan penjeberangan ke Korea.
9. **Hakodate,** pelabuhan-penting dipulau Jesso dengan industri korek-apinja.

G. **Perhubungannja dengan Indonesia.**

Perhubungan-dagang sedjak dahulu pesat: Indonesia meng-ekspor bahan² mentah ke Djepang dan meng-import barang² hasil fabrik.

Untuk mengganti kerugian jang diakibatkan oleh penduduk-an Djepang di Indonesia 1942 — 1945, Djepang masih ber-utang kepada Indonesia. Pertukaran perwakilan antara Dje-pang dan Indonesia barulah mengenai lapangan-perdagangan **(konsol djenderal).**

Mengingat kembali.

1. Negara Djepang adalah sebuah ....., jang dipe-rintahi oleh .....
2. Bila diperbandingkan dengan pulau Kalimantan, maka luas-nja adalah ..... dari pulau Kalimantan.
3. Ibunegeri Djepang ialah .....; penduduknja .....
4. Djepang dinamai dalam bahasa Djepang .....
5. Orang Djepang menganut agama ..... dan .....
6. Pulau² Djepang jang terpenting ialah .....
7. Semua pulau² Djepang ber-gunung² dan diantara gunung² itu banjak jang .....; diseluruh Djepang ada ..... buah gunung-api, diantaranja ..... buah jang masih hidup.
8. Djepang atjapkali mengalami 3 matjam bentjana alam, jaitu: ....., ... dan .....
9. Tjeritakanlah tentang kepertjajaan bangsa Djepang dan aga-manja !
10. Sedjak pabilakah Djepang mendjadi kuat dan modern dan pabilakah daradjatnja makin naik djuga ?
11. Apakah jang menjebabkan timbulnja nafsu keradjaan Dje-pang hendak menguasai seluruh Asia ?
12. Pabilakah Djepang mentjapai kemenangan jang terbesar dan pabilakah ia terpaksa menjerah dengan tidak bersjarat ?
13. Apakah jang terutama menjebabkan Djepang menjerah de-ngan tidak bersjarat itu ?
14. Apakah perubahan jang dibawa oleh Amerika di Djepang waktu pendudukannja ?
15. Masuk induk-bangsa apakah Djepang ?
16. Dengan djalan apakah Djepang memadjukan pertaniannja ?
17. Dengan djalan apa pula diperoleh kemadjuan dalam perin-dusterian ?

18. Perusahaan apakah di Djepang jang mengambil kedudukan no. 2 diseluruh dunia?
19. Apakah sebabnja harga barang² Djepang lebih murah daripada barang² negara² lain?
20. Sebutkanlah kongsi² perkapalan Djepang, jang mengangkut barang² Djepang keluar negeri!
21. Apa²kah jang di-import dari luar-negeri ke Djepang?
22. Sebutkanlah beberapa kota jang terpenting di Djepang!
23. Kota apakah kota jang ke-3 didunia?
24. Tjeriterakanlah tentang perhubungan Indonesia dengan Djepang!

XIII. KOREA

A. Letaknja, luasnja, keadaannja, dll.

Korea, jang disebut djuga **Chosen,** ialah semenandjung di Asia Timur, jang dibatasi:

sebelah Barat oleh Laut Kuning dan Teluk Korea,
sebelah Utara oleh Manchuria,
sebelah Timur oleh Laut Djepang,
sebelah Selatan oleh Selat Korea.

Luasnja: ± 221.000 km² (lebih besar daripada Sulawesi, tetapi ketjil dari pulau Sumatera).

Keadaan tanahnja ber-gunung². Iklimnja waktu musim-dingin dingin dan kering; waktu musim-panas dan lengas (berair).

Hasil² pertanian jang terpenting ialah: beras, gandum, katjang²an, tembakau, kapas dan djawawut (sekoi).

Sebagai di Djepang, djuga di Korea banjak terdapat pemeliharaan ulat-sutera untuk memperoleh sutera. Peternakan lebih madju di Korea daripada di Djepang. Perikananpun diusahakan oleh penduduk.

Tanahnja banjak sekali mengandung besi, emas dan mika. Perindusteriannja menghasilkan sutera, katun dan pupuk-buatan.

B. Penduduknja, agamanja dan bahasanja.

Penduduknja ± 25 djuta djiwa.

Agamanja: Buddha, Konghutju dan Taoisme (Taoisme ialah agama bangsa Tiong Hoa ± 500 tahun sebelum Masehi).

Bahasanja: Korea, Djepang dan Tiong Hoa.

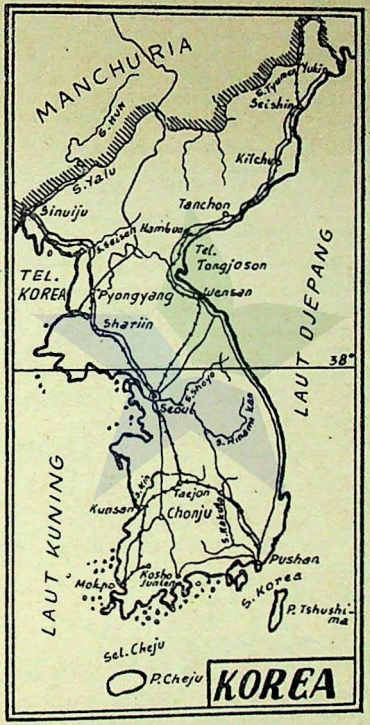
MANCHURIA
S. Yalu
Sinuiju
Seishin
Kitchu
Tanchon
Hambun
Tel. Tongjoson
TEL. KOREA
Pyongyang
Wensan
Shariin
LAUT DJEPANG
38°
Seoul
Taejon
Kunsan
Chonju
Pushan
Mokpo
Kosho Junten
S. Korea
P. Tshushima
LAUT KUNING
Sel. Cheju
P. Cheju
KOREA

C. **Sedjarah-pendeknja.**

Pada tahun 1906 Korea dimasukkan Djepang sebagai djadjahannja dan pada tahun 1942 dimasukkan wilajah Djepang. Setelah Djepang menjerah, maka wakil[2] Amerika Serikat dan Sovjet Rusia membentuk Pemerintahan Korea Sementara, kemudian terdjadilah peperangan antara Korea Utara dan Korea Selatan lebih dua tahun lamanja. Dalam politik dan peperangan Korea Utara dibantu oleh R.R.T. dan Sovjet Rusia, sedangkan Korea Selatan dibantu oleh Amerika Serikat dan gabungan tentera P.B.B.

Pada 27 Djuli 1953 diadakan perletakan-sendjata dan pada 27 April 1954 berachirlah perang Korea.

Korea Utara ibunegerinja **Pyongyang,** penduduknja 286.000 djiwa; **Korea Selatan** ibunegerinja **Seoul** (disebut djuga Keijo), penduduknja ± 1.200.000 djiwa.

Mengingat kembali.

1. Korea disebut djuga ..... ; luasnja ± ..... km²; penduduknja ± .....
2. Agamanja ialah ..... ; bahasanja .....
3. Hasil[2] pertaniannja : ..... dan tanahnja banjak mengandung .....
4. Perindusteriannja menghasilkan .....
5. Bangsa[2] apakah jang beradu pengaruh di Korea?
6. Korea dibagi atas ..... bagian, jaitu : ..... ibunegerinja ..... dan ..... ibunegerinja .....

XIV. I N D I A

A. **Bentuk negaranja, luasnja, penduduknja, dll.**

1. Bentuk-negaranja : Republik.
2. Kepala Negara : Presiden.
3. Luasnja : ± 3.000.000 km² (lebih $1^1/_2$ X Indonesia).
4. Penduduknja : ± 357.000.000 djiwa.
5. Benderanja : Oranje, putih, hidjau (mendatar) beroda ditengah[2].
6. Ibukotanja : New Delhi ± (1.750.000 djiwa).
7. Mata-wangnja : Rupi.
8. Agamanja : terutama agama Hindu.

B. **Letaknja dan keadaan alamnja.**

Sebelah Barat berbatas dengan Pakistan, Laut Arab dan Lautan Hindia.

Sebelah Selatan berbatas dengan Lautan Hindia.

Sebelah Timur berbatas dengan Teluk Benggala, Pakistan dan Birma.

Sebelah Utara berbatas dengan Tiongkok.

Menurut letaknja **keadaan alamnja** dapat dibagi tiga jaitu:

a. Daerah pegunungan Himalaja, jang berpuntjakkan Mount Everest (8882 m, gunung jang tertinggi didunia), dataran-tinggi Dekhan, jang merupakan batas sebelah Utara.

b. Dataran Hindustan, jaitu daerah sungai Indus dan Gangga.

c. Dataran Indus sebelah Barat sangat kering dan sebelah Selatannja hampir menjerupai daerah gurun.

Dataran Gangga subur tanahnja, karena disini banjak turun hudjan. Di India keadaan alamnja saling bertentangan: ada daerah jang sangat **banjak hudjannja,** misalnja di **Asam** (12 m dalam setahun) dan ada daerah jang masuk daerah jang **terkering** diseluruh dunia, jaitu **gurun Thar.** Karena itu pulalah terdapat daerah jang amat makmur disamping daerah jang banjak mengalami kemelaratan. Demikian djuga iklimnja: ada daerah jang sangat dingin dan ada daerah jang sangat panas (35° C.).

C. **Penduduknja, kastanja dan bahasanja.**

Kebanjakan penduduk India rambutnja hitam; warga-negaranja terdiri dari ber-bagai[2] tjampuran bangsa, kelihatan pada warna kulitnja, rambutnja dan potongan tubuhnja.

Penduduk dataran-tinggi Dekhan tubuhnja agak ketjil, tetapi penduduk sebelah Utara kebanjakan besar[2] dan tegap[2] tubuhnja.

Ketjuali bangsa **Dravida** (sebelah Selatan), bentuk[2] muka bangsa India banjak persamaannja dengan bentuk[2] muka bangsa Eropah.

Meskipun bangsa India umumnja kulitnja berwarna hitam, menurut penjelidikan sebagian ahli[2] ilmu bangsa[2], kasta[2] jang tinggi dalam bangsa India adalah keturunan **Aria** (Indo-german) dizaman ribuan tahun dahulu.

Dalam masjarakat India terdapat 4 matjam kasta (tingkatan daradjat manusia), jaitu :

1) **Brahmana,** kasta jang tertinggi : pendeta-agama.
2) **Ksatria,** kasta ke 2 : peradjurit, radja² dan orang² jang gagah berani.
3) **Wesja,** kasta ke-3 : saudagar, orangtani, tukang, dll.
4) **Sudra,** kasta ke-4 : orang² jang diperbudak dan jang disamakan dengan itu.

Jang paling dibawah sekali bernama **Kasta Paria**, jang sebenarnja menurut pandangan orang India kasta jang se-hina²-nja.

Zaman dahulu kasta² jang lain itu merasa dirinja bernadjis, bila mereka bersintuh dengan seorang Paria.
Bahasa jang dipakai di India sangat banjak djenisnja. Oleh sebab itu sangat susah menetapkan bahasa-persatuan di India, tidak sebagai di Indonesia.

Pada umumnja diantara **bahasa² India Baru** jang terpenting dimasukkan kegolongan **Bahasa² Hindu, Benggali, Oriya** dan **Marathi.**

Bahasa Inggeris masih dipakai di Sekolah² Menengah di India, karena sampai sekarang belum ada bahasa-persatuan.

Bahasa Sangsekerta ialah bahasa-kesusasteraan.

D. Kebudajaannja.

Kebudajaan India telah masjhur sedjak 3000 tahun sebelum tahun Masehi, mulai di Lembah Indus.

Kebudajaan dan kesenian jang berbentuk bangun²an menurut zamannja dibagi orang dalam 8 zaman sedjak 3000 tahun sebelum tahun Masehi itu sampai sekarang. Demikianlah lamanja sudah kebudajaan India dengan pelbagai matjam tjoraknja, sampai² kepada pembuatan patung² perunggu. Bangunan jang terindah ialah Taj Mahal di Agra. Kebudajaannja itu sampai berkembang di Indonesia. Peninggalan²nja masih dapat dilihat dipulau Djawa (tjandi²) dan di Bali (adat-istiadat dan kuil²).

E. **Hasil²nja.**

Hasil² pertanian: padi, gandum, kapas, bidji² berminjak, katjang-tanah, gula, teh, kopi, karet, dll.
Hasil² perindusterian: katun, goni, sutera dan logam.
Hasil² eksport jang terpenting: goni, kapas (katun), teh, kulit, bidji² berminjak, beras, lim, gandum, wol, minjak, mangan, tembakau dan batubara.

F. **Sedjarah-pendek tentang pemerintahannja.**

Pada tahun 1858, Pemerintahan India berdiri langsung dibawah Mahkota Inggeris. Pada tahun 1886 negara² India dipaksa mengakui kedaulatan Inggeris. Pada tahun 1886 — 1939 terdjadi perubahan dalam susunan tatanegara (peraturan negara). Waktu itu **Indian National Congress** menjatakan keinginannja untuk merdeka. Pada tahun 1947 bulan Agustus pamongpradja bangsa Inggeris dan tentera Inggeris meninggalkan India dan Pakistan. Kedua negeri ini memperoleh pemerintahan sendiri, jang berbentuk **dominion** (masih dikuasai Inggeris). Kemudian pada tanggal **26 Djanuari 1950 diproklamasikan Republik India** dengan ibukotanja New Delhi.
Kota² jang lain: Calcutta (kota-pelabuhan jang ramai), Allahabad dan Benares (kota-sutji ditepi S. Gangga), Bombay, Madras, Agra, Heiderabad, dll.

G. **Perhubungan dengan Indonesia.**

Perhubungan ekonomi, politik dan kebudajaan diperpesat dengan pertukaran perwakilan antara kedua negara itu dan dalam konperensi Asia-Afrika.

Mengingat kembali.

1. Negara India ialah sebuah .....; jang dikepalai oleh .....; luasnja adalah ± ..... kali Indonesia.
2. Penduduknja jang berdjumlah ± ..... terbagi atas 4 kasta, jaitu: a) .....; b) .....; c) .....; d) .....
3. Lain daripada 4 kasta itu ada pula kasta .....; jang dianggap oleh orang Hindu bukan kasta manusia lagi.
4. Apakah buktinja, bahwa mereka itu dianggap bukan manusia lagi oleh kasta² jang tinggi ?
5. Keturunan bangsa apakah kasta² jang tinggi itu menurut penjelidikan sebagian ahli² ilmu bangsa² ?

6. Dimanakah jang banjak sekali turun hudjan dan dimana jang tidak turun hudjan?
7. Apakah sebabnja masih dipakai bahasa Inggeris dan Sekolah² Menengah di Indonesia?
8. Tjeriterakanlah sedikit tentang kebudajaan India!
9. Sebutkanlah hasil² India:
   a) Hasil² pertanian.
   b) Hasil² jang di-eksport.
10. Pabilakah bangsa India menjatakan keinginannja hendak merdeka?
11. Sebutkanlah Pemimpin² Kemerdekaan India, jang terbesar!
12. Pabilakah India peroleh kemerdekaannja?
13. Apakah ibukota negara India?
14. Sebutkanlah beberapa kotabesar jang lain!

XV. NEPAL

Di Himalaja ada sebuah negara, jang dinamai Nepal. Negara ini luasnja ± 140 000 km² dan diperintahi oleh satu kelompokan kepala tentera. Penduduknja ± 7.000.000 djiwa, jaitu sukubangsa **Gurkha.**

Agamanja: Hindu dan Buddha.

Orang Gurkha banjak dipakai oleh tentara Inggeris dalam peperangan.

Ibunegeri Nepal ialah **Kathmandu** (108.000 djiwa).

Nepal adalah djuga diwakili dalam Konperensi Asia-Afrika di Bandung.

XVI. PAKISTAN

A. Bentuk negaranja, luasnja dan penduduknja.

1. Bentuk-negaranja: Repuplik Islam (sedjak 23-3-1956).
2. Kepala Negara: Presiden. (Presiden pertama: Djenderal Major Iskandar Mirza).
3. Luasnja: ± 935 000 km² (hampir sama dengan Kalimantan dan Sulawesi).
4. Penduduknja: ± 80 djuta djiwa.
5. Agamanja: Sebagian besar Islam, sedikit Buddha, Hindu dan Kristen.
6. Bahasa: Urdu.
7. Benderanja: Hidjau-putih bergambarkan bulan-sabit — bintang.
8. Ibukotanja: Karachi (± 500.000 djiwa.

B. **Pemerintahannja.**

Sebelum tahun 1947 merupakan satu daerah dengan India dibawah djadjahan Inggeris. Pada tahun 1947 beroleh kemerdekaan dengan kedudukan sebagai dominion, jaitu dalam lingkungan Keradjaan Inggeris. Pada tanggal 23-3-1956 diproklamirkan mendjadi „Negara Republik Islam".

C. **Kota²nja.**

Ibunegeri Pakistan **Karachi,** sebuah pelabuhan untuk eksport dari Punjab.

Kota² jang lain: **Lahore** (± 600 000 djiwa) ialah kota jang terpenting di Punjab. Kota ini adalah kota-perdagangan dan perindusterian, menghasilkan katun (kapas). Dikota ini banjak gedung jang indah².

Lahore adalah asal dari **„Ahmadijjah Lahore",** jang berpendirian, bahwa **Mirza Ghulam Ahmad** adalah pembaharu agama Islam, bukan Nabi atau Rasul menurut pendapat **„Ahmadijjah Qadian".**

Sebuah distrik di Benggala Timur, bernama Dacca dengan ibukotanja **Dacca,** adalah distrik jang subur tanahnja. Hasil pertaniannja jang terpenting ialah beras. Djuga terdapat didaerah ini pertukangan emas, perak, industri-tekstil dan pembuatan kapal. Kota Dacca adalah pula kota-universitas. Runtuhan² jang terdapat disini mengingatkan kepada kedjajaannja jang lampau.

D. **Perhubungan dengan Indonesia.**

Antara Pakistan dan Indonesia telah ada pertukaran perwakilan untuk politik, ekonomi dan kebudajaan.

Di Indonesia banjak djuga tinggal orang Pakistan.

Mengingat kembali.

1. Negara Pakistan adalah Repuplik ..... jang diproklamirkan pada tanggal .....
2. Luasnja hampir sama dengan ..... dan penduduknja ± .....
3. Agama jang dianut oleh penduduknja ialah .....
4. Sebelum tahun ..... Pakistan merupakan satu daerah dengan ..... dibawah djadjahan Inggeris dan pada tahun ..... beroleh kemerdekaan dengan kedudukan .....

5. Ibunegerinja ialah ..... dengan penduduk ± .....
6. Kota ini adalah sebuah pelabuhan untuk ..... dari .....
7. Ahmadijjah Lahore asalnja dari ..... Ahmadijjah Lahore ini berbeda pendapat dengan Ahmadijjah ..... tentang .....
8. Terangkanlah perbedaan pendapat itu !
9. Distrik apakah jang subur di Benggala Timur dan apakah hasil pertaniannja jang terpenting ?
10. Apakah nama ibukotanja ? Tjeriterakanlah tentang kota ini !

XVII. SAILAN (CEYLON)

A. Letaknja, pandjangnja, luasnja, dll.

Pulau Sailan (Ceylon) letaknja di Lautan Hindia, agak sebelah Tenggara dari India.

Pulau ini pandjangnja ± 445 km, lebarnja 160 — 235 km dan luasnja ± 65.608 km² (± ½ pulau Djawa).

Ibunegerinja **Colombo** (362.000 djiwa).

B. Sedjarah-pendeknja.

Tahun 307 agama Buddha mulai disebarkan. Pada tahun 1505 bangsa Portugis mendarat dipulau ini. Pada tahun 1602 bangsa Belanda tiba dipulau ini dan pada tahun 1658 Colombo dirampas oleh bangsa Belanda dari bangsa Portugis. Pada tahun 1802 Sailan diberikan oleh Belanda kepada Inggeris.

Sedjak 4 Pebruari 1948 Sailan mendjadi **dominion otomom** (daerah berdiri sendiri, jang berkedudukan dominion dalam lingkungan negara² perlindungan Inggeris).

C. Hasil²nja, keadaan tanahnja, iklimnja.

Hasil-pertanian: cacao, kaju-manis, karet dan teh (25% dari hasil teh seluruh dunia). Lain daripada itu kopra, kina, tembakau, rempah², kopi dan minjak-serai jang disebut citronella.

Barang² tambang (pelikan = mineral): grafit (sebangsa batubara untuk pinsil), kaolin (bahan porselen), besi, pasir-katja dan intan.

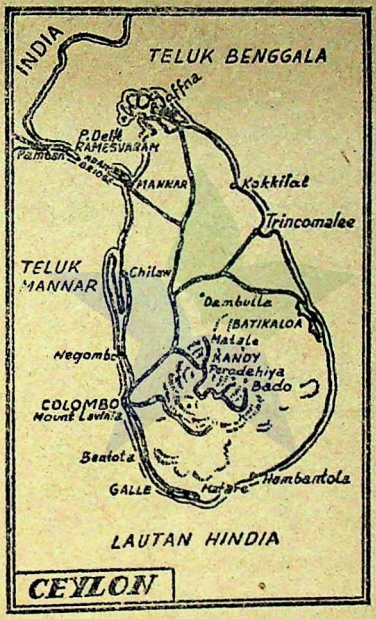
INDIA
TELUK BENGGALA
Jaffna
P.Dell
RAMESVARAM
Pamban
ADAM'S BRIDGE
MANNAR
Kokkilai
Trincomalee
TELUK MANNAR
Chilaw
Dambulla
BATIKALOA
Matale
KANDY
Peradeniya
Badd
Negombo
COLOMBO
Mount Lavinia
Beatota
GALLE
Matara
Hambantota
LAUTAN HINDIA
CEYLON

Keadaan buminja: pantai²nja datar, di Utara dataran-rendah dan di Selatan pegunungan.
Iklimnja ialah iklim-musim, panasnja pukul-rata 26° — 32° C.

D. **Penduduknja.**

Penduduknja lebih 8 djuta djiwa, diantaranja 75% kaum Buddha dan bangsa Singhala, selebihnja bangsa Tamil (Hindu), orang Islam, orang Eropah, peranakan Eropah dan „**Burgher**", jaitu turunan bangsa Belanda dan Portugis dengan penduduk. Penduduk-aslinja bernama bangsa **Wedda**; hampir musnah.

E. **Perhubungan dengan Indonesia.**

Telah ada pertukaran perwakilan antara kedua negara ini.

Mengenal kembali.

1. Pulau Sailan terletak ....; luasnja ± .... pulau Djawa; ibunegerinja ....
2. Pulau ini mula² didjadjah oleh ....; sudah itu oleh ....
3. Bangsa .... memberikan pulau ini kepada Inggeris pada tahun ....
4. Sedjak .... pulau ini mendjadi ....
5. Sebutkanlah hasil²nja!
6. Penduduknja adalah ± ...., terdiri sebagian besar dari ....
7. Bangsa² apakah lagi jang mendiami Sailan?
8. Apakah nama penduduk aslinja dan bagaimanakah keadaan mereka ini sekarang?

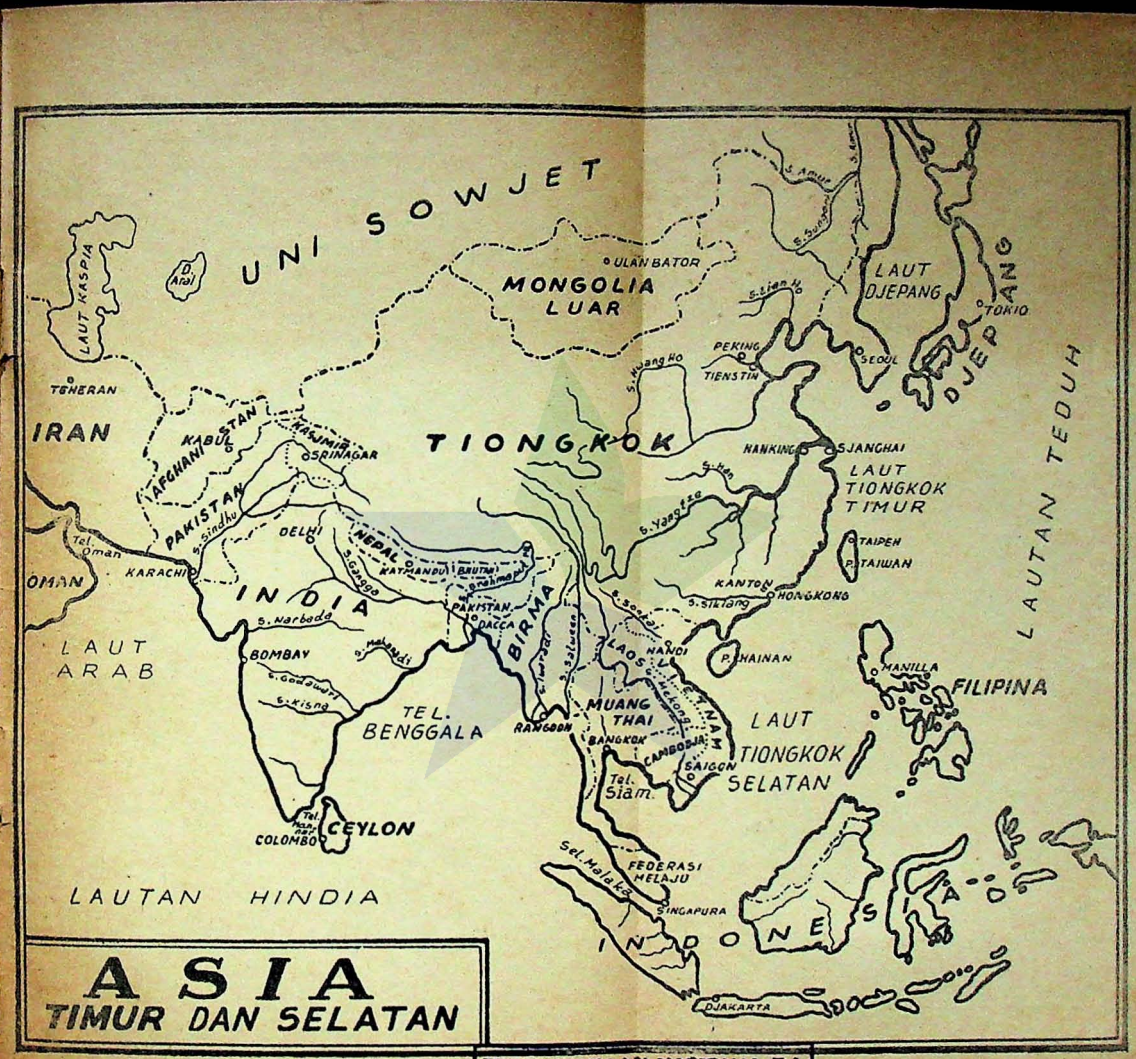

ASIA
TIMUR DAN SELATAN

PERPUSTAKAAN NASIONAL R.I.

Keadaan buminja: pantai²nja datar, di Utara dataran-rendah dan di Selatan pegunungan.
Iklimnja ialah iklim-musim, panasnja pukul-rata 26° — 32° C.

D. **Penduduknja.**

Penduduknja lebih 8 djuta djiwa, diantaranja 75% kaum Buddha dan bangsa Singhala, selebihnja bangsa Tamil (Hindu), orang Islam, orang Eropah, peranakan Eropah dan **„Burgher"**, jaitu turunan bangsa Belanda dan Portugis dengan penduduk. Penduduk-aslinja bernama bangsa **Wedda;** hampir musnah.

E. **Perhubungan dengan Indonesia.**

Telah ada pertukaran perwakilan antara kedua negara ini.

Mengenal kembali.

1. Pulau Sailan terletak ....; luasnja ± .... pulau Djawa; ibunegerinja ....
2. Pulau ini mula² didjadjah oleh ....; sudah itu oleh ....
3. Bangsa .... memberikan pulau ini kepada Inggeris pada tahun ....
4. Sedjak .... pulau ini mendjadi ....
5. Sebutkanlah hasil²nja!
6. Penduduknja adalah ± ...., terdiri sebagian besar dari ....
7. Bangsa² apakah lagi jang mendiami Sailan?
8. Apakah nama penduduk aslinja dan bagaimanakah keadaan mereka ini sekarang?

***



TEHERAN

IRAN



L A
A R

L A

T I M

0,–
8,–
9,–
6,–
7,–

5,50

0,–
8,–
7,–
7,–
6,–
7,–
5,–
7,–
6,–

0,–

0,–
7,–
7,–
6,–
7,–
5,–
7,–
0,–

2,–

D.

E.

1.

2.

3.

4.

5.

6.

7.

8.

UNTUK SEKOLAH RAKJAT

Kelas IV

Susila I (Batjaan 'Arab) oleh: Habib St. Maharadja Rp.10,—
Peladjaran Sedjarah, kelas IV, oleh: Saidi St. Sati Rp. 8,—
Ilmu Bumi I [Sumatera] oleh: Habib St. Maharadja cs. Rp. 9,—
Ilmu Hewan I oleh: J. St. Madjo Lelo [Penilik Sekolah] Rp. 6,—
Ilmu Tumbuh²an I oleh: Habib St Maharadja Rp. 7,—
Latihan Tulisan 'Arab I [Dikte 'Arab] oleh: J. St. Madjo Lelo dan D. Dyar Karim Inspektur Kepala S.R. Rp. 5,50

Kelas V

Susila II [Batjaan 'Arab] oleh: Habib St. Maharadja Rp.10,—
Sedjarah Indonesia I oleh: A. Moeis dan Maisir Thaib Rp. 8,—
Ilmu Bumi II A) oleh: Habib St. Maharadja Rp. 7,—
Ilmu Bumi II B) dan Saidi St. Sati Inspektur S.R. Rp. 7,—
Ilmu Hewan II oleh: J. St. Madjo Lelo Rp. 6,—
Ilmu Tumbuh²an II oleh: Habib St. Maharadja Rp. 7,—
Latihan Tulisan 'Arab II [Dikte 'Arab] Rp. 5,—
Ilmu Alam I oleh: A. Moeis dan Saidi St. Sati Rp. 7,—
Ilmu Hajat I oleh: Dr. Nizar dan Habib St. Maharadja Rp. 6,—

Kelas VI

Susila III [Batjaan 'Arab] oleh: Habib St. Maharadja Rp.10,—
Sedjarah Indonesia II oleh: A. Moeis dan Maisir Thaib Rp.10,—
Ilmu Bumi III A) oleh: Habib St. Maharadja dan Rp. 7,—
Ilmu Bumi III B) Saidi St. Sati Inspektur S.R. Rp. 7,—
Ilmu Hewan II oleh: J. St. Madjo Lelo Rp. 6,—
Ilmu Tumbuh²an II oleh: Habib St. Maharadja Rp. 7,—
Latihan Tulisan 'Arab II [Dikte 'Arab] Rp. 5,—
Ilmu Alam II oleh: A. Moeis dan Saidi St. Sati Rp. 7,—
Ilmu Hajat II oleh: Dr. Nizar dan Habib St. Maharadja Rp.10,—
Hukum Edjaan Tulisan 'Arab oleh: J. St. Madjo Lelo dan D. Dyar Karim Inspektur Kepala S. R. Rp.12,—

Penerbit: N. V. „KEDJORA" Bukittinggi
(Djalan Singgalang 11—13).



S.I.P.K. No. 915/J.L. tgl. 23 - 7 - 56 opl. 10.000 ex

N.V. Pertjetakan dan Penerbitan „Kedjora"