UNTUK SEKOLAH RAKJAT

Pokok2 Hitungan

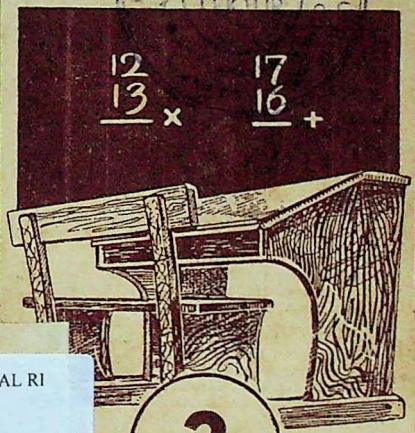

AAN NASIONAL RI
4/55

3

Oleh:
A. Kadir Nast.

PENERBITAN PERTJETAKAN
PUSTAKA "Maoju" MEDAN

BUKU-BUKU S. R. JANG SUKSES

Telah dipesan oleh Kementerian P. P. dan K. di Djakarta dengan suratnja Tanggal 31 Mei 1954 No. 592/P.D./54.

ABBAS HASSAN :

Ilmu Hewan djilid I - II tjetakan ke-X	Rp.	5.50
Ilmu Tumbuh2an djilid I - II tjetakan ke VIII	,,	4.50
Ilmu Bumi Tanah Air djilid I tjetakan ke VII	,,	4.50
Ilmu Bumi Tanah Air djilid II tjetakan ke VII	,,	5.50
Ilmu Bumi Negara Tetangga tjetakan ke VII	,,	6.50
Ilmu Bumi Propinsi Sumatera Utara kls III - IV	,,	5.—
Sedjarah Tanah Air Kita tjetakan ke VIII	,,	7.50
Ilmu Hajat Tubuh Manusia tjetakan ke VII	,,	6.50
Penuntun Udjian dan Kuntjinja untuk kelas VI	,,	12.50
Orang2 Terkemuka dalam Sedjarah Indonesia	,,	6.—
Riwajat Rasul2 Pilihan tjetakan ke VI	,,	6.—
Sedjarah Nabi Muhammad SAW.	,,	6.—
Sedjarah Chulafaurrasjidin	,,	5.50
Batjaan Kita djilid I - II - III untuk klas I	,,	4.—
I. Kesehatan (L. Pinajungan) tjetakan ke II	,,	6.—
I. Alam (B. L. Toruan) djilid I - II tjetakan IV	,,	4.—
Pel. Membatik (R. Rangkuti) untuk S. K. P.	,,	4.—
Pel. Menggambar (Pa' Kun) djilid I kls VI - V	,,	5.—
P. Menggambar. (Pa' Kun) dj. II klas VI dan SMP	,,	6.—
Pel. Seni suara (Pa' Kun) untuk klas V - VI	,,	6.—
Pel. Berhitung (A. Kadir Nst) klas V - VI	,,	5.—
Pel. Berhitung Angka dan Kalimat V - VI	,,	5.—
Penuntun Udjian Berhitung (A. Kadir)	,,	3.—
Bel. Bahasa Indonesia (M. Nuh Hudawy) I	,,	4.50
Bel. Bahasa Indonesia (M. Nuh Hudawy) II	,,	5.50
Bel. Bahasa Indonesia (M. Nuh Hudawy) III	,,	6.—
Bel. Bahasa Indonesia (M. Nuh Hudawy) IV	,,	6.50
Bel. Bahasa Indonesia (M. Nuh Hudawy) V	,,	7.—
Ilmu Bumi Indonesia (L. Pinajungan) untuk SMP	,,	12.—
I. Bumi Semesta Dunia (L. Pinajungan) untuk SMP	,,	15.—
I. Hewan dan Tubuh Manusia (Pak Kun) SMP	,,	25.—
Peladjaran Sendi Islam (Mohd. Hasbi)	,,	7.50
Peladjaran Ilmu Tauhid (M. Hasbi)	,,	5.50
Pokok2 Hitungan (A. Kadir Nasution) djilid I	,,	6.50
Pokok2 Hitungan (A. Kadir Nasution) djilid II	,,	6.—
Pokok2 Hitungan (A. Kadir Nasution) djilid III	,,	5.50
Pokok2 Hitungan (A. Kadir Nasution) djilid IV	,,	4.50
Pokok2 Hitungan (A. Kadir Nasution) djilid V	,,	4.50

Sedia segala buku2 penerbitan Medan Umumnja. Ongkos kirim tambah 15 pCt. Pesan banjak potong 30 pCt. Ongkos bebas.

Firma „MADJU" - Medan.

Djalan Sutomo P. 342 - Talipon 1508.

Pp 263.380

POKOK² HITUNGAN

UNTUK KELAS IV
DJILID KE III.

TJETAKAN Ke II

OLEH :
A. KADIR NASUTION

JAJASAN UNIUA MEMADJUKAN PERSEDIAAN LEKTUR JANG BERGUNA UNTUK PEMBAGUNAN MASJARAKAT
JAJASAN LEKTUR
372.7
Nas
p.

PENERBIT :
Pertjetakan „MADJU" - Medan.

POKOK² HITUNGAN

BIDANG BIBLIOGRAFI
DAN DEPOSIT

UNTUK KELAS IV
SMLD KE III

HAK PADA PENERBIT)

OLEH

A. KADIR NASUTION

PUSAT
PENGEMBANGAN
PERPUSTAKAAN

PENERBIT :
Perpustakaan „MADJU" - Medan.

KATA PENGANTAR
UNTUK KLAS IV

Teman sedjawat jang terhormat.

Kitab hitungan ini adalah chusus untuk kelas IV Sekolah Rakjat.

Menurut pendapat penjusun buku ini **t u d j u a n** pengadjaran Berhitung, ialah memiliki ketjekatan dan kesaksamaan dalam menerangkan soal hitungan jang bersahadja seperti jang kita djumpai dalam penghidupan se-hari2.

Sjarat utama bagi pengadjaran berhitung, ialah :

I. menarik hati anak2.

II. berperaga.

III. mengembangkan kerdja sendiri.

Tjukuplah kiranja penjusun terakan disini beberapa tjatetan. Tak mungkin rasanja berpegang kepada buku ini sadja.

Kitab ini tidak lebih nilainja dari sebuah daja upaja untuk ulangan dan pengluasan dari pada benda2, blok2 buah2an, ukuran2, timbangan, gambar2 dan sebagainja jang diperagakan oleh para guru. Anak-anak melihat, anak2 melakukan sesuatu.

Melihat dan melakukan itu hendaknja selalu sedjalan pada peladjaran berhitung.

Sekianlah harapan penjusun.

Ma'af dari penjusun

„A. KADIR NAST"

1.

2.

3.

4.

5.

1.

§ I.

1. **Ulangan :**

   Batjalah : $1 = {}^{2}/_{2}$. $1 = {}^{3}/_{3}$. $1 = {}^{4}/_{4}$. $1 = {}^{5}/_{5}$.

2. **I s i l a h :**

   $1 = .../_{5}$. $1 = .../_{6}$. $1 = .../_{7}$. $1 = .../_{8}$. $1 = .../_{9}$. $1 = .../_{10}$.

3. **I s i l a h :**

$1 = .../_{2}$	$2 = .../_{2}$	$3 = .../_{2}$	$4 = .../_{3}$	$5 = .../_{3}$.
$6 = .../_{4}$	$7 = .../_{8}$	$8 = .../_{3}$	$8 = .../_{5}$	$4 = .../_{6}$
$9 = .../_{6}$	$6 = .../_{7}$	$3 = .../_{4}$	$5 = .../_{9}$	$2 = .../_{6}$

4. **I s i l a h :**

$10 = .../_{2}$.	$11 = .../_{6}$.	$12 = .../_{2}$.	$13 = .../_{3}$.
$14 = .../_{5}$.	$15 = .../_{5}$.	$16 = .../_{3}$.	$17 = .../_{2}$.
$18 = .../_{5}$.	$19 = .../_{4}$.	$20 = .../_{3}$.	$25 = .../_{4}$.
$30 = .../_{3}$.	$30 = .../_{4}$.	$40 = .../_{4}$.	$50 = .../_{2}$.

5. **B a t j a l a h !**

${}^{4}/_{2} =$ 2.	${}^{6}/_{2} =$ 3.	${}^{8}/_{4} =$ 2.	${}^{30}/_{3} =$ 10.	${}^{27}/_{9} =$ 3.
${}^{6}/_{3} =$	${}^{8}/_{2} =$	${}^{10}/_{5} =$	${}^{12}/_{3} =$ ...	${}^{15}/_{5} =$ ....
${}^{24}/_{8} =$	${}^{16}/_{4} =$	${}^{30}/_{3} =$	${}^{20}/_{4} =$ ...	${}^{35}/_{5} =$ ...

§ II.

1.
1400 — 367 =	.....
1600 — 424 =	.....
1800 — 469 =	.....
1700 — 596 =	.....
1500 — 496 =	.....
Djumlah	= .....

2.
1600 — 496 =	.....
1800 — 675 =	.....
2000 — 964 =	.....
1500 — 397 =	.....
1700 — 583 =	.....
Djumlah	= .....

3. 1000 − 275 = .../5

900 − 376 = .../4

1000 − 676 = .../3

1100 − 866 = .../6

Djawab : .....

4. (2063 − 249 − 17 − 106 − 464 − 68 − 185) × 5 = ...

5. (1427 + 96 + 298 + 205 + 256 + 19 + 27) : 2 = ...

6. (1306 + 1106 + 85 + 78 + 75 + 1446) : 3 = ...

7. (1199 + 77 + 1278 + 86 + 1149 + 58 + 41) : 4 = ...

8. (1678 + 289 + 36 − 246 + 1456 − 206 + 41) : 5 = ...

9. (1143 + 1346 − 206 − 256 + 96 + 264 + 33) : 6 = ...

10. (920 − 466 + 276 − 338 + 95 + 43 + 44) : 7 = ...

5. Buatlah !

§ III.

1. Si Ali mempunjai 3 roti. Roti itu masing² dipotongnja mendjadi empat potong. Djadi roti itu ada ..... potong.

§ II

2. Didalam kelas ada 46 orang murid. Tiap-tiap murid mendapat separuh pisang goreng. Djadi ada ..... pisang goreng.

3. Si Arnis membeli sebuah tas. Dibajarkannja dengan sepuluh rupiah dan diterimanja kembali: 1 ringgit, 2 rupiah, 3 tali, 4 ketip, 5 kelip dan 5 sen. Berapakah harga tas itu?

4. 15 serutu harganja 75 sen. Berapa harga 60 serutu ?

5. Seperlima dari suatu bilangan sama dengan 15. Berapakah bilangan itu ? Berapakah empat kali bilangan itu ?

6. Umur Arnis delapan tahun. Umur Netti lima tahun lebih muda dari pada Arnis. Erna empat tahun lebih tua dari pada Arnis. Berapakah umur Erna ? Berapakah djumlah umur Arnis dan Netti ?

7. Pukul berapakah tiga perempat djam sebelum setengah sepuluh ?

8. Pukul berapakah tiga perempat djam sesudah setengah sepuluh ?

9. Tuliskanlah berderet bilangan ini, mulai dengan bilangan jang ketjil : 4423, 4243, 1543, 4441.

§ IV.

1. (993 — 189 — 257 — 173 — 78 — 153) × 6 = ...

2. (1678 — 289 + 36 + 246 + 1456 — 206 + 41) : 4 = ...

3. (1100 — 356) l : 8 = ... l = ... dl.

4. (1000 — 394) g : 7 = ... g = ... dl.

5. (900 — 318) m : 6 = ... m = ... cm.

6. 8 djeruk harganja 32 sen. Berapakah harga 240 djeruk ?

7. Berapakah seperenam dari 450 kurang dari sepertudjuh dari 560 ?

8. 7752, 7734, 4377, 2757, 6834.
Bilangan mana jang paling ketjil? Bilangan mana pula jang paling besar ?

9. (157 + 31 — 168 + 2045) : 413 = ...
(26 + 249 + 6074 — 322) : 861 = ...
(8496 + 91 — 4429 — 195) : 1321 = ...

10. (224 — 141 + 6721 + 241) : 1409 = ...
(101 + 45 — 54 + 3462) : 1777 = ...

§ V.

1. (50 + 50 + 380) : 4 = ... 2.180 + 30 + 12) : 2 = ...
(920 — 100 — 19) : 9 = ... (720 — 80 — 17) : 7 = ...

3. 1 meter harganja 34 sen. Berapakah harga 1½ meter ? Berapa harga 2½ meter ? Dan berapa harga 5 meter ?

4. Risna dapat menempuh djalan dengan sepeda dalam 1 djam 16 km. Dalam 2½ djam ditempuhnja ..... km.

5. Upah Amir dalam sedjam Rp. 0,34. Upah Amar 1½ kali Amir. Mereka bekerdja 8 djam sehari. Berapa upah Amir dan Amar masing2 dalam sehari ?

6. Amat menukarkan wangnja sebanjak 1000 sen dengan wang tali. Berapa tali diterimanja ?

7. (7 × 144 — 20 × 25) : 4 = ...

8. (15 × 15 + 13 × 13 + 16 × 16 + 6 × 25) : 10 = ...

9. (16 × 16 + 18 × 18 + 17 × 17 + 15 × 17) : 7 = ...

§ VI.

1. (803 — 69 — 345 — 37 — 221 — 123) × 124 = ...

2. **Berapakah :**
2910 m — 13 dam — 37 m — 4 hm — 49 m — 2 hm = ... dm.

3. 3 × 171 = ...
4 × 141 = ...
2 × 181 = ...
6 × 241 = ...

Djumlah = ...

4. 9 × 421 = ...
3 × 381 = ...
1 × 381 = ...
4 × 311 = ...

Djumlah = ...

5. 1310 — 230 = ...
1410 — 180 = ...
1610 — 470 = ...
1510 — 410 = ...
1710 — 704 = ...

Djumlah = ...

6. 2310 — 217 = ...
2510 — 420 = ...
2410 — 307 = ...
2610 — 436 = ...
2710 — 579 = ...

Djumlah = ...

Hitunglah dengan setjepat- tjepatnja :

7. 75 : 15 = ...
90 : 5 = ...
240 : 10 = ...
630 : 10 = ...
630 : 3 = ...
75 : 5 = ...

8. 625 : 125 = ...
375 : 125 = ...
875 : 125 = ...
750 : 125 = ...
500 : 4 = ...
625 : 5 = ...

§ VII.

Sebutkanlah :

1. $2\frac{1}{2} = {}^{5}/_{2}$.
$1\frac{1}{3} = {}^{4}/_{3}$.
$2\frac{1}{5} = {}^{11}/_{5}$.

2. $3\frac{1}{4} = {}^{13}/_{4}$.
$10\frac{1}{2} = {}^{21}/_{2}$.
$6\frac{1}{6} = {}^{37}/_{6}$.

3. ${}^{10}/_{3} = 3\frac{1}{3}$
${}^{7}/_{2} = 3\frac{1}{2}$.
${}^{23}/_{10} = 2\frac{3}{10}$.

4. ${}^{12}/_{5} = 2\frac{2}{5}$.
${}^{80}/_{9} = 8\frac{8}{9}$.
${}^{73}/_{7} = 10\frac{3}{7}$.

Hitunglah :

5. $2\frac{2}{3} = .../3$.
$2\frac{3}{10} = .../10$.
$1\frac{4}{7} = .../7$.
$3\frac{2}{5} = .../5$.
$3\frac{7}{9} = .../9$.

6. $5\frac{1}{5} = .../5$
$4\frac{3}{8} = .../8$
$4\frac{3}{4} = .../4$
$5\frac{1}{7} = .../7$
$6\frac{1}{2} = .../2$

7. $31/_3$ = ...
$34/_5$ = ...
$39/_4$ = ...
$41/_5$ = ...
$27/_5$ = ...

8. $84/_9$ = ...
$78/_7$ = ...
$25/_7$ = ...
$23/_{11}$ = ...
$13/_9$ = ...

9. 4 × 133 = ...
3 × 132 = ...
10 × 129 = ...
9 × 128 = ...

Djumlah = ...

10. 6 × 126 = ...
7 × 127 = ...
8 × 128 = ...
9 × 129 = ...

Djumlah = ...

§ VIII

1. 16 ketip = ... sen.
17 kelip = ... sen.
28 ketip = ... sen.
3 ringgit = ... sen.
4 tali = ... sen.

Djumlah = ... sen.

2. 178 ketip = ... sen.
16 suku = ... sen.
690 kelip = ... sen.
160 ketip = ... sen.
16 tali = ... sen.

Djumlah = ... sen.

3. 35 m = ... cm.
28 dm = ... cm.
41 dm = ... cm.
13 dm = ... cm.
25 dm = ... cm.

Djumlah = ... cm.

4. 16 dl = ... cl.
26 dl = ... cl.
25 cl = ... cl.
43 l = ... cl.
219 dl = ... cl.

Djumlah = ...cl.

5. (960 — 278 — 47 — 82 — 255 — 262 — 35) × 875 = ...

6. (860 — 84 — 185 — 147 — 106 — 92 — 245) × 879 = ...

7. 34 × 34 + 28 × 28 — 29 × 29) : 7 = ...

8. (35 × 35 — 24 × 24 + 23 × 27) : 10 = ...

9. **Perbanjakkanlah :**

251	350	442	546	635
31 ×	34 ×	34 ×	34 ×	46 ×

10. $(16 \times 175 - 14 \times 135) \times 17 = \ldots\ldots\ldots\ldots$

§ IX.

Batjalah :

1. $\frac{1}{4} + \frac{1}{4} = \frac{2}{4} = \frac{1}{2}$.
   $\frac{4}{7} + \frac{2}{7} = \frac{6}{7}$.
   $\frac{4}{9} + \frac{3}{9} = \frac{7}{9}$.
   $\frac{3}{10} + \frac{6}{10} = \frac{9}{10}$.
   $\frac{2}{6} + \frac{3}{6} = \frac{5}{6}$.

2. $\frac{3}{4} + \frac{3}{4} = \frac{6}{4} = 1\frac{2}{4} = 1\frac{1}{2}$
   $\frac{4}{7} + \frac{6}{7} = \frac{10}{7} = 1\frac{3}{7}$.
   $\frac{7}{10} + \frac{9}{10} = \frac{16}{10} = 1\frac{6}{10} = 1\frac{3}{5}$.
   $\frac{4}{9} + \frac{7}{9} = \frac{11}{9} = 1\frac{2}{9}$.
   $\frac{3}{5} + \frac{3}{5} = \frac{6}{5} = 1\frac{1}{5}$.

Bagilah :

3. 7352 : 4 = ...	4. 1190 : 10 = ...	5. 2480 : 20 = ...
4968 : 8 = ...	9765 : 5 = ...	5761 : 7 = ...
3450 : 3 = ...	6543 : 9 = ...	2532 : 6 = ...
1264 : 8 = ...	3435 : 3 = ...	6957 : 9 = ...

6. Rusli dapat menempuh dengan sepedanja dalam 1 djam 15000 m. Pandjang djalan jang akan ditempuhnja adalah 30 km. Dalam berapa djam ditempuhnja djalan itu ?

7. Harga 4 pinsil dan 10 kitab tulis 80 sen.
   Harga 1 kitab tulis 6 sen. Berapakah harga 1 pinsil ?

8. Umur Amir 14 tahun. Umur Amar 4 tahun lebih dari pada Amir. Asman 6 tahun kurang dari pada Amar. Berapa djumlah umur mereka ?

Djumlahkan:

9.
326	179	
16	3047	
2133	19	
356	56	
39	305	
326 +	26 +	

10.
17	99	
1136	136	
355	37	
2244	445	
18	278	
325 +	235 +	

§ X

1.
62	66	85	84	85	95
58 ×	45×	42 ×	60 ×	50 ×	32 ×

2.
125	275	225	450	350	275
22 ×	26 ×	28 ×	30 ×	21 ×	16 ×

Hitunglah!

3. $^1/_3 + {}^1/_3 = \ldots$ $^3/_8 + {}^4/_8 = \ldots$ $^4/_8 + {}^5/_8 = \ldots$ $^4/_9 + {}^3/_9 = \ldots$ $^3/_5 + {}^1/_5 = \ldots$

4. $^2/_5 + {}^3/_5 = \ldots$ $^2/_9 + {}^7/_9 = \ldots$ $^7/_8 + {}^7/_8 = \ldots$ $^6/_7 + {}^1/_7 = \ldots$ $^7/_{10} + {}^2/_{10} = \ldots$

5. $^5/_8 + {}^7/_8 = \ldots$ $^4/_9 + {}^8/_9 = \ldots$ $^7/_8 + {}^3/_8 = \ldots$ $^5/_7 + {}^5/_7 = \ldots$ $^2/_3 + {}^2/_3 = \ldots$

6. Harga 1 m kain sutera Rp. 4,20. Harga 1 m kain tjita Rp. 2,15. Ibu membeli 6 m sutera dan 5 m tjita. Berapa harus dibajar ibu ?

7. Si Amin harus membajar Rp. 7,87. Diberikannja 7 rupiah, ... tali, 1 kelip +..... sen.

8. $22^1/_2 + 7^1/_2 =$ $32^1/_2 + 7^1/_2 =$ $42^1/_2 + 7^1/_2 =$ $72^1/_2 + 7^1/_2 =$ $92^1/_2 + 7^1/_2 =$

9. $25 + 7^1/_2 = \ldots$ $35 + 7^1/_2 = \ldots$ $45 + 7^1/_2 = \ldots$ $85 + 7^1/_2 = \ldots$ $95 + 7^1/_2 = \ldots$

10. $7^1/_2 + 7^1/_2 =$ $27^1/_2 + 7^1/_2 =$ $37^1/_2 + 7^1/_2 =$ $57^1/_2 + 7^1/_2 =$ $97^1/_2 + 7^1/_2 =$

§ XI.

P a h a m k a n l a h :

1. **Mentjahari luas jaitu : pandjang × lebar.**

   T j o n t o h :

   Pandjang kebun bunga si Anna 2 m. Lebarnja 5 m. Luasnja 2 m × 5 m = 10 m^2. (2 × 5 m^2 = 10 m^2).

2. **Mentjahari kelilingnja jaitu : 2 pandjang + 2 lebar = 2 m + 2 m + 5 m + 5 m = 14 m.**
   Atau ditjahari setengah keliling dahulu, jaitu: 1 pandjang + 1 lebar = 2 m + 5 m = 7 m. Kelilingnja = 2 × 7 m = 14 m.

3. **Mentjahari isi, jaitu : pandjang × lebar × tinggi (tebal).**

   T j o n t o h :

   Pandjang sebuah peti 4 dm. Lebarnja 3 dm. Tingginja (tebalnja) 2 dm. Isi peti itu sama dengan 4 dm × 3 dam × 2 dm (4 × 3 × 2 dm^3 = 24 dm^3).

   H i t u n g l a h :

4. Pandjang kebun sekolah 110 m. Lebarnja 85 m. Kelilingnja = ... hm. Luasnja = ... m^2. **(1 hm = 100 m. 1 dam = 10 m).**

5. Ada sebuah peti. Pandjangnja 1 m, lebar 8 dm dan tingginja setengah m. Hitunglah isinja berapa dm^3.

6. Pandjang kelas kami 7 m. Lebarnja 6 m. Tingginja 5 m. Hitunglah berapa m^2 luas lantainja. Hitung djuga berapa m^3 isi kelas itu.

7. Seratus serutu harganja Rp. 20,— Berapa harga 25 serutu ? Berapa harga 150 serutu?.

8. 25 butir telur ajam harganja Rp. 12,50. Berapakah harga 150 butir ?

Hitunglah djumlah harga dibawah ini !

9. 4 meter tjita á Rp. 3,25 semeter.
5 meter tjita á Rp. 2,40 semeter.
6 meter tjita á Rp. 2,30 semeter.

10. 103 58 66 95 69 46 86
49 × 94 × 75 × 68 × 69 × 73 × 77 ×

§ XII.

1. 1 km = ... m.
$\frac{2}{5}$ km = ... m.
$\frac{3}{5}$ km = ... m.
$\frac{4}{5}$ km = ... m.
$\frac{1}{4}$ km = ... m.
$\frac{3}{4}$ km = ... m.
Djum. = ... m.

2. 1 km = ... dam.
$\frac{1}{5}$ km = ... dam.
$\frac{2}{5}$ km = ... dam.
$\frac{1}{2}$ km = ... dam.
$\frac{4}{5}$ km = ... dam.
$\frac{3}{5}$ km = ... dam.
Djum. = ... dam.

3. 1 km = ... hm.
$\frac{1}{5}$ km = ... hm.
$\frac{2}{5}$ km = ... hm.
$\frac{1}{2}$ km = ... hm.
$\frac{1}{10}$ km = ... hm.
$\frac{3}{5}$ km = ... hm.
Djum. = ... hm.

4. 1 pal kira-kira 1500 m atau ..... km.
40 pal = ... km.

Djumlahkan:

5. 1000 + 90 + 21 = ...
1000 + 77 + 32 = ...
1000 + 31 + 55 = ...

6. 1085 + 22 + 18 = ...
1085 + 28 + 32 = ...
1085 + 42 + 28 = ...

7. 1046 + 34 + 47 = ...
1046 + 35 + 52 = ...
1046 + 27 + 34 = ...

8. 985 + 235 + 22 = ...
985 + 231 + 109 = ...
985 + 221 + 19 = ...

9. 946 + 234 + 25 = ...
946 + 221 + 86 = ...
946 + 215 + 24 = ...

10. 934 + 334 + 22 = ...
934 + 231 + 18 = ...
934 + 211 + 18 = ...

§ XIII.

Menguraikan :

1. **T j o n t o h :**

2344 = 2000 + 300 + 40 + 4.
3455 = 3000 + 400 + 50 + 5.
4566 = 4000 + 500 + 60 + 6.

Sekarang uraikanlah sendiri !

2. 4535 = ...
   4634 = ...
   4355 = ...

3. 5866 = ...
   5346 = ...
   5466 = ...

4. 6896 = ...
   6346 = ...
   5642 = ...

5. 7864 = ...
   7542 = ...
   7452 = ...

Kurangilah :

6. 835 — 35 = ... 846 — 47 = ... 831 — 76 = ...

7. 946 — 535 = ... 946 — 487 = ... 946 — 557 = ...

8. 1046 — 73 = ... 1046 — 87 = ... 1046 — 247 = ...

9. 1034 — 102 = ... 1034 — 244 = ... 1034 — 335 =

10. 1035 — 234 = ... 1035 — 346 = ... 1046 — 446 = ...

§ XIV.

I s i l a h :

Tjontoh :

1. 345 + 285 = 630.
   345 + 335 = 680.
   345 + 335 = 680.

2. 735 + ... = 860.
735 + ... = 935.
735 + ... = 1035.

3. 835 + ... = 1100.
835 + ... = 1085.
835 + ... = 1109.

4. 934 + ... = 221.
934 + ... = 1085.
934 + ... = 1099.

5. 1035 + ... = 2101.
1035 + ... = 2121.
1035 + ... = 2221.

6. 10 × 68 = ...
10 × 25 = ...
10 × 47 = ...
10 × 85 = ...
10 × 92 = ...

7. 5 × 26 = ...
5 × 34 = ...
5 × 42 = ...
5 × 54 = ...
5 × 58 = ...

8. 170 : 10 = ...
260 : 10 = ...
380 : 10 = ...
410 : 10 = ...
540 : 10 = ...

9.

10986	9875	8764	7653	6542	5431
5097	3988—	3988 —	2697	2697 —	3566 —

10. Berapakah setengah dari empat kali tudjuh belas ? Berapakah empat kali separuh dari tudjuh puluh ?

§ XV.

1. Umur Burhan 4 tahun lebih tua dari pada Kadir. Kadir 2 tahun lebih tua dari Ani. Umur Ani 10 tahun. Berapa umur Burhan ?

2.

Pandjang:	Lebar :	Luas :	Keliling :
22 m	20 m	... m^2	..... m.
30 dm	26 dm	... dm^2.	..... dm.
40 cm	35 cm	... cm^2	..... cm.
40 dm	25 dm	... dm^2	..... dm.

3. $2\frac{1}{2}$ km = ... m.
$10\frac{1}{5}$ hm = ... m.
$\frac{3}{5}$ dam = ... m.
$\frac{3}{4}$ hm = ... m.
$\frac{4}{5}$km = ... m.
Djumlah = ... m.

4. $\frac{2}{5}$ hm = ... m.
$\frac{3}{4}$ hm = ... m.
$\frac{1}{10}$ dam = ... m.
$\frac{3}{10}$ km = ... m.
$\frac{1}{4}$ hm = ... m.
Djumlah = ... m.

5. Kereta api dapat menempuh 1,5 km dalam semenit. Berapa km-kah dalam sedjam ?

6. Djumlah dua buah bilangan = 1000. Bilangan jang satu ja-itu : 696. Berapakah bilangan jang lainnja ?

7. **Sebutkanlah :**

pukul 8.45 = pk. 9 kurang seperempat.
pukul 5.45 = ...
pukul 10.45 = ...
pukul 2.45 = ...
pukul 9.45 = ...
pukul 7.45 = ...

8. **Sebutkan djuga :**

pukul 8.15 = pukul 8 lewat seperempat.
pukul 11.15 = ...
pukul 2.15 = ...
pukul 7.20 = ...
pukul 10.30 = ...
pukul 11.30 = ...

9. Kereta api berangkat dari kota B pukul 6.30. dan tiba dikota M pukul 7.45. Berapa lama didjalan ?

10. $1\frac{1}{2} \times 110$ sama dengan $3 \times$ .....
$2\frac{1}{2} \times 64$ sama dengan ... $\times$ .....

§ XVI.

Isilah :

1. 222 + ... = 1000.
235 + ... = 1020.
280 + ... = 1010.

2. 300 + ... = 465.
400 + ... = 485.
400 + ... = 485.

3. 475 = ... + 135.
741 = ... + 235.
750 = ... + 235.

4. 1366 = ... + 835.
1311 = ... + 735.
1816 = ... + 345.

5. ..... + 785 = 3361.
..... + 985 = 2431.
..... + 985 = 2333.

6. ..... + 885 = 1000.
..... + 835 = 1111.
..... + 1085 = 1120.

7. 11 × 11 + ... = 921.
11 × 21 + ... = 1131.
11 × 22 + ... = 1232.

8. 22 × 25 + 835 = ...
22 × 23 + 835 = ...
22 × 22 + 835 = ...

9. 15 × 15 + 985 = ...
16 × 16 + 935 = ...
17 × 17 + 935 = ...

10. 27 × 27 + 734 = ...
28 × 28 + 734 = ...
25 × 25 + 734 = ...

§ XVII.

1. 148 suku = ... rupiah.
236 tali = ... rupiah.
80 kelip = ... rupiah.
40 ketip = ... rupiah.

Djumlah = ... rupiah.

2. 400 sen = ... rupiah.
140 gobang = ... rupiah
600 ketip = ... rupiah
800 kelip = ... rupiah

Djumlah = ... rupiah

3. 1 ringgit = ... kelip
6 suku = ... kelip
140 kelip = ... kelip
4 tali = ... kelip
3 rupiah = ... kelip

Djumlah = ... kelip

4. 3 rupiah = ... ketip.
16 tali = ... ketip.
80 gobang = ... ketip.
4 suku = ... ketip.
4 ringgit = ... ketip.

Djumlah = ... ketip.

5. 25 × 75 — 875 = ...

6. 37 × 47 — 569 = ...

7. (1581 — 836) × 17 = ...

8. (1482 — 790) × 11 = ...

9. (149 + 87 + 137 + 86) × 8 = ...

10. 4 × 306 + 4864 : 8 = ...

§ XVIII.

1. 333 — 28 × 28 = ...
   3333 — 27 × 27 = ...
   333 — 26 × 26 = ...

2. 222 — 23 × 23 = ...
   222 — 24 × 24 = ...
   222 — 25 × 25 = ...

2. 1111 — 22 × 22 = ...
   1111 — 21 × 21 = ...
   1111 — 19 × 19 = ...

4. 1001 — 15 × 35 = ...
   1001 — 15 × 40 = ...
   1001 — 16 × 35 = ...

5. 1000 — 22 × 25 = ...
   1000 — 20 × 35 = ...
   1000 — 18 × 18 = ...

6. 975 — 25 × 25 = ...
   975 — 23 × 24 = ...
   975 — 23 × 24 = ...

Hitunglah harganja :

7. 2½ meter á 24 sen.
   3½ meter á 38 sen.
   1½ meter á 28 sen.
   4½ meter á 36 sen.

8. 1½ meter á 22 sen.
   5½ meter á 16 sen.
   6½ meter á 40 sen.
   7½ meter á 16 sen.

9. 20 telur á 4½ sen.
   30 telur á 4½ sen.
   24 telur á 3½ sen.
   40 telur á 5½ sen.

10. 24 telur á 3½ sen.
    32 telur á 4½ sen.
    40 telur á 5½ sen.
    60 telur á 4½ sen.

§ XIX.

1. 48 × 25 + 56 × 25 — 24 × 25 = ...

2. 6 × 15 = ...
   6 × 25 = ...
   6 × 35 = ...
   6 × 45 = ...
   6 × 55 = ...

3. 6 × 65 = ...
   6 × 75 = ...
   6 × 85 = ...
   6 × 95 = ...
   6 × 105 = ...

4. 120 : 5 = ...
   140 : 5 = ...
   160 : 5 = ...
   180 : 5 = ...
   200 : 5 = ...

5. Berapakah pendapatannja, kalau 2½ × dikalikan dengan 2 ? Dan kalau 2½ × 100 dikalikan dengan 4 ?

6. **Hitunglah** : 16 × 25 dibagi dengan 4; 16 × 25 dibagi dengan 5; 16 × 25 dibagi dengan 8.

7.

556	673	1395	625
638	5537	4257	2568
1457	568	.....	.....
..... +	..... +	458 +	3565 +
3000	7500	8000	7500

8.

3325	288	2435	4467
.....	2456	1688	668
576	.....	.....	.....
478 +	543 +	576 +	4467 +
5000	4750	5200	8300.

9. (286 + 145 + 69 — 363) × 3 = ...

10. (900 — 887 + 27 — 16 + 13) × 27 = ...

§ XX.

1. Sebuah kampung penduduknja 400 orang. Sebuah kampung jang lain penduduknja 700 orang. Djumlah penduduk kedua kampung itu ..... orang.

2. Seekor kuda harganja Rp. 450,—
   8 ekor kuda harganja Rp. .....
   10 ekor kuda harganja Rp. .....

3. Penumpang sebuah kapal banjaknja 1100 orang. Di Belawan turun 600 orang. Penumpang didalam kapal masih ada ..... orang.

4. Kampung A. B dan C penduduknja sama banjak. Djumlah penduduk ketiga kampung itu 2850 orang. Berapakah penduduk tiap2 kampung ?

5. **Djumlahkanlah :**

5000	4000	8000	5000	6000	14
300	500	900	1000	13	50
50	50	500	12	50	5000
19	18	17	40	900	500

6. **K a l i k a n l a h :**

400	414	355	505	551	140	621
37	32	26	31	29	27	24

7. Seperdua dari 1 km = ... m. Seperdua dari 4 km = ... m.
Seperdua dari 3 km = ... m. Seperdua dari 2 km = ... m.
Seperdua dari 5 km = ... m. Seperdua dari 6 km = .. m.

8. Sebuah djalan pandjangnja 5 km 4 hm = ... m.
" " " 6 km 3 hm = ... m.
" " " 7 km 8 hm = ... m.
" " " 3 km 4 dam = ... m.
" " " 8 km 5 dam = ... m.

9. Seseorang berdjalan kaki dapat menempuh 6 km sedjam. Berapat m-kah ditempuhnja dalam 2 djam ?

10. **B a h a g i l a h !**

520 : 26 =	680 : 34 =	736 : 23 =	540 : 36 =
806 : 26 =	782 : 34 =	920 : 23 =	828 : 36 =
780 : 26 =	850 : 34 =	690 : 23 =	720 : 36 =
572 : 26 =	714 : 34 =	805 : 23 =	648 : 36 =

§ XXI.

D j u m l a h k a n !

1. 6753	3426	2354	4274	5267
841	3768	2361	4156	3402

K u r a n g k a n !

2.

3204	4301	6208	5463	7632
841	732	624	787	4691

3. Si Amar dan si Amir berdjualan. Si Amar beroleh keuntungan Rp. 560,— Si Amir beroleh keuntungan djuga sebanjak Rp. 285,— Berapakah lebih keuntungan Amar dari Amir ?

4. Kelereng Asnan sebelum bermain ada 126 butir. Sesudah bermain kelerengnja 163 butir. Berapa butirkah kemenangannja ?

5. A. B. C dan D membagi wang sebanjak Rp. 856,— Pembahagiannja sama banjak. Berapakah bahagian masing-masing ?

6. 29 hl — 9 dal + 40 l — 48 dal + 3 hl — 269 l = ... l:

7. 49 hm + 17 dam + 23 m — 67 dam — 3 hm — 27 m = ... m:

8. $\frac{1}{3} \times 420 + \frac{1}{5} \times 400 + \frac{1}{7} \times 770 - \frac{1}{9} \times 720 =$ .....

9.

$\frac{1}{3} \times$ 3 hm 5 dam = ... m.	
$\frac{1}{4} \times$ 6 hm 4 dam = ... m.	
$\frac{1}{5} \times$ 8 hm 5 dam = ... m.	
$\frac{1}{6} \times$ 7 hm 2 dam = ... m.	
Djumlah = ... m.	

10.

	$\frac{1}{2} \times$ 4 hl 2 dal = ... l.
	$\frac{1}{3} \times$ 5 hl 4 dal = ... l.
	$\frac{1}{4} \times$ 6 hl 8 dal = ... l.
	$\frac{1}{5} \times$ 5 hl 5 dal = ... l.
	Djumlah = ... l.

§ XXII.

1. 12 × (4 hl + 27 dal + 8 dal — 578 l) = ... l.

Isilah:

2. $300 = \ldots \times 6$ 3. $10 = \ldots \times 2\frac{1}{2}$ 4. $10 = \ldots \times \frac{1}{3}$.
$300 = \ldots \times 12$ $100 = \ldots \times 2\frac{1}{2}$ $20 = \ldots \times 3\frac{1}{3}$.
$300 = \ldots \times 50$ $25 = \ldots \times 2\frac{1}{2}$ $30 = \ldots \times 3\frac{1}{3}$.
$3000 = \ldots \times 50$ $250 = \ldots \times 2\frac{1}{2}$ $40 = \ldots \times 3\frac{1}{3}$.
$3000 = \ldots \times 50$. $150 = \ldots \times 2\frac{1}{2}$ $70 = \ldots \times 3\frac{1}{3}$.

5. Isilah:

Pandjang :	Lebar :	Luas :	Keliling :
15 m	... m	... m²	60 m.
12 m	... m	132 m²	... m.
35 m	25 m	... m²	... m.
... m	30 m	750 m²	... m.

6. Amir, Aman dan Amar membahagi wang Rp. 1,— Amir menerima separuhnja, Aman seperlimanja dan Amar sisanja. Berapakah bahagian masing2 ?

7. Berapakah seperempat dari 256 ?
Berapakah tiga kali seperempat dari 256 ?

8. $5 \times \ldots = 160$ 9. $\ldots \times 12 = 72$ 10. $84 = \ldots \times 12$
$8 \times \ldots = 160$ $\ldots \times 4 = 72$ $8400 = \ldots \times 12$
$10 \times \ldots = 160$ $\ldots \times 6 = 72$ $72 = \ldots \times 12$
$10 \times \ldots = 1600$ $\ldots \times 90 = 720$ $720 = \ldots \times 12$
$5 \times \ldots = 1600$ $\ldots \times 80 = 720$ $720 = \ldots \times 20$

§ XXIII.

1. 1. $15 - 3\frac{1}{2} = \ldots$ 2. $10 - 2\frac{1}{2} = \ldots$ 3. $10 - 7\frac{1}{2} =$
$55 - 3\frac{1}{2} = \ldots$ $40 - 2\frac{1}{2} = \ldots$ $12\frac{1}{2} - 7\frac{1}{2} =$
$65 - 3\frac{1}{2} = \ldots$ $60 - 2\frac{1}{2} = \ldots$ $40 - 7\frac{1}{2} =$
$85 - 3\frac{1}{2} = \ldots$ $70 - 2\frac{1}{2} = \ldots$ $42\frac{1}{2} - 7\frac{1}{2} =$
$115 - 3\frac{1}{2} = \ldots$ $90 - 2\frac{1}{2} = \ldots$ $72\frac{1}{2} - 7\frac{1}{2} =$

4. **Kurangkanlah !** (Sebutkan lebih dahulu).

Rp. 14,75	Rp. 11,70	Rp. 14,20	Rp. 10,—
„ 2,70	„ 5,25	„ 2,65	„ 3,75

5. 3 + 13 + 23 + 33 + 43 + 53 + 63 + 103 = ...
   5 + 25 + 45 + 65 + 15 + 35 + 55 + 75 = ...
   6 + 36 + 56 + 66 + 26 + 16 + 46 + 106 = ...
   8 + 18 + 28 + 38 + 48 + 58 + 68 + 98 = ...
   7 + 27 + 17 + 67 + 57 + 37 + 47 + 97 = ...

6. (97 + 586 + 7 + 27 — 596) × 7 = ...

7.
6 ringgit	=	rupiah.
46 ringgit	=	„
96 ringgit	=	„
32 ringgit	=	„
54 ringgit	=	„
40 ringgit	=	„
Djumlah	=	rupiah

8.
12 tali	=	rupiah
76 tali	=	„
64 tali	=	„
176 tali	=	„
320 tali	=	„
432 tali	=	„
Djumlah	=	„

9. 8015 : 7 + 6354 : 9 — 2200 : 10 = ...

10. 8688 : 6 + 2922 : 6 = ...

§ XXIV.

1. ½ × 250 = ...
   ½ × 360 = ...
   ½ × 470 = ...
   ½ × 580 = ...
   Djumlah = ...

2. ½ × 310 = ...
   ½ × 370 = ...
   ½ × 460 = ...
   ½ × 520 = ...
   Djumlah = ...

3. ½ × 340 = ...
   ½ × 660 = ...
   ½ × 442 = ...
   ½ × 810 = ...
   Djumlah = ...

PERPUSTAKAAN

4. 1334 : 2 = ...
2340 : 2 = ...
3346 : 2 = ...
4348 : 2 = ...
Djumlah = ...

5. 4012 : 2 = ...
4018 : 2 = ...
4032 : 3 = ...
4038 : 3 = ...
Djumlah = ...

6. 4936 : 4 = ...
3932 : 4 = ...
3836 : 4 = ...
2940 : 4 = ...
Djumlah = ...

7. 115 lusin + 115 buah = ... buah.
125 lusin + 95 buah = ... buah.
123 lusin + 92 buah = ... buah.

1 lusin = 12 buah.

8. 265 lusin + 126 buah = ... buah.
315 lusin + 113 buah = ... buah.
215 lusin + 95 buah = ... buah.

9. 835 buah = ... lusin + ... buah.
585 buah = ... lusin + ... buah.
735 buah = ... lusin + ... buah.

10. 886 buah = ... lusin + ... buah.
554 buah = ... lusin + ... buah.
785 buah = ... lusin + ... buah.

§ XXV.

1. 335 buah + 635 buah = ... lusin + ... buah.
546 buah + 585 buah = ... lusin + ... buah.

2. 445 buah + 8 lusin = ... lusin + ... buah.
2. 445 buah + 8 lusin = ... lusin + ... buah.

3. 235 bulan = ... tahun + ... bulan.
335 bulan = ... tahun + ... bulan.
535 bulan = ... tahun + ... bulan.

4. 356 bulan = ... tahun + ... bulan.
365 bulan = ... tahun + ... bulan.
425 bulan = ... tahun + ... bulan.

5. 8 ringgit + 8 rupiah + 8 suku = ... suku.
   20 tahun + 20 bulan + 20 minggu = ... minggu.
   38 hari + 38 djam + 38 menit = ... menit.
   26 rupiah + 26 suku + 26 tali = ... tali.

6. 275 m — 275 dm — 275 cm
   135 m — 135 dm — 135 cm +
   ..... m + . . dm + ... cm.

7. 215 l — 215 dl — 215 cl
   114 l — 114 dl — 114 cl +

8. 115 bulan — 115 minggu — 115 hari
   68 bulan — 68 minggu — 68 hari +
   .... bulan + ... minggu + ... hari

9. 115 rupiah — 115 suku — 115 tali
   88 rupiah — 88 suku — 88 tali +
   ..... rupiah + ... suku + ... tali

10. 136 ketip + 136 kelip + 136 sen.
    104 ketip + 104 kelip + 104 sen —
    ..... ketip + ... kelip + ... sen.

§ XXVI.

1. **Perhatikanlah dan tanjakanlah pada Pak Guru.**
   $\frac{1}{2} - \frac{1}{4} = \frac{2}{4} - \frac{1}{4} = \frac{1}{4}$.
   $\frac{2}{5} - \frac{3}{10} = \frac{4}{10} - \frac{3}{10} = \frac{1}{10}$.
   $\frac{5}{8} - \frac{1}{8} = \frac{4}{8} = \frac{1}{2}$. ....

Sekarang hitunglah sendiri :

2. $\frac{1}{2} - \frac{1}{6} = \ldots$ 3. $\frac{1}{3} - \frac{2}{6} = \ldots$ 4. $\frac{1}{2} - \frac{1}{5} = \ldots$
   $\frac{1}{2} - \frac{1}{8} = \ldots$ $\frac{1}{3} - \frac{2}{9} = \ldots$ $\frac{3}{5} - \frac{1}{2} = \ldots$
   $\frac{1}{2} - \frac{1}{10} = \ldots$ $\frac{1}{2} - \frac{2}{8} = \ldots$ $\frac{1}{2} - \frac{2}{5} = \ldots$
   $\frac{1}{3} - \frac{1}{9} = \ldots$ $\frac{1}{2} - \frac{2}{10} = \ldots$ $\frac{2}{3} - \frac{1}{2} = \ldots$

5. $3\frac{1}{2} + \frac{1}{4} = \ldots$ 6. $6\frac{1}{2} + 1\frac{3}{8} = \ldots$ 7. $4\frac{2}{5} + 2\frac{3}{10} =$
$4\frac{1}{2} + 1\frac{1}{8} = \ldots$ $7\frac{1}{5} + 1\frac{3}{10} =$ $7\frac{3}{4} + 1\frac{1}{8} =$
$5\frac{1}{2} + 1\frac{1}{10} =$ $3\frac{1}{3} + 6\frac{2}{9} = \ldots$ $1\frac{3}{5} + 7\frac{3}{10} =$
$6\frac{1}{3} + 2\frac{1}{6} = \ldots$ $2\frac{1}{4} + 3\frac{5}{8} = \ldots$ $5\frac{1}{5} + 7\frac{2}{10} =$
$7\frac{1}{3} + 4\frac{1}{9} = \ldots$ $7\frac{1}{3} + 3\frac{2}{6} = \ldots$ $5\frac{3}{4} + 3\frac{2}{8} =$

8. Pukul berapakah dua puluh lima menit setelah setengah sembilan ? Dan dua puluh lima menit sebelum setengah sembilan ?

9. Pukul berapakah tiga perempat djam sebelum pukul 9 kurang seperempat ? Dan tiga perempat djam setelah pukul 9 kurang seperempat ?

10. Berapakah sepertiga dari 342 ?
Berapakah empat kali sepertiga dari 342 ?

§ XXVII.

1. **Perhatikan dan Ingatlah !**

15 + 2 = 17. (17 = djumlah).
15 — 2 = 13. (13 = selisih.
15 × 3 = 45. (45 = pendapatan (hasil) perbanjakan). (pengalian).
15 : 3 = 5 (5 pendapatan (hasil) bagi).

2. Hitunglah djumlahnja : 4271 dan 387.

Hitunglah selisihnja : 4271 dan 387.
Hitunglah hasil pengaliannja: 343 dan 8.
Hitunglah hasil baginja : 875 dan 125.

3. Seperdelapan dari wang Ainun adalah Rp. 11,— Berapakah wang Ainun ? Berapakah setengah dari wang Ainun ?

4. Sepersepuluh dari wang Asni ada Rp. 10,— Berapakah wang Asni ? Berapakah seperempat wangnja ?

5. 1 pal kira-kira (±) 1500 m = ... km.
21 pal = ... km = ... hm = ... dam.

6. **Susun kebawah :**

Rp. 14,50 + Rp. 16,80 + Rp. 32,30 + Rp. 15,90 + Rp. 4,50.
Rp. 28,75 + Rp. 14,75 + Rp. 7,35 + Rp. 26,45 + Rp. 8,00.
Rp. 33,80 + Rp. 15,20 + Rp. 17,45 + Rp. 6,65 + Rp. 25,35.
Rp. 15,75 + Rp. 4,85 + Rp. 18,30 + Rp. 15,— + Rp. 4,75.
Rp. 17,00 + Rp. 13,60 + Rp. 15,95 + Rp. 7,55 + Rp. 18,75.

7.

130	120	130	140	145	156
36 ×	14 ×	13 ×	19 ×	30 ×	30 ×

8. (7000 — 288 + 290 — 1090) : 9 = ...

9.
$\frac{1}{2}$ × 20 dam = ... m.
$\frac{1}{4}$ × 32 dam = ... m.
$\frac{1}{6}$ × 54 dam = ... m.
$\frac{1}{8}$ × 64 dam = ... m.
Djumlah = ... m.

10.
$\frac{1}{3}$ × 18 dal = ... l.
$\frac{1}{5}$ × 55 dal = ... l.
$\frac{1}{7}$ × 63 dal = ... l.
$\frac{1}{9}$ × 81 dal = ... l.
Djumlah = ... l.

§ XXVIII.

1.
3 × 130 = ...
40 × 130 = ...
43 × 130 = ...

4 × 140 = ...
20 × 140 = ...
24 × 140 = ...

2.
5 × 80 = ...
10 × 80 = ...
15 × 80 = ...

5 × 220 = ...
10 × 220 = ...
15 × 220 = ...

3.
5 × 180 = ...
25 × 180 = ...
30 × 180 = ...

8 × 140 = ...
50 × 140 = ...
58 × 140 = ...

4. 1031 — 97 — 88 — 107 — 96 — 185 — 74 — 363 = ...

5. Seperlima dari wang Upik ada Rp. 15,—. Berapakah wangnja ? Berapakah $^1/_3$ dari wangnja ? Dan berapakah seperlimabelas dari wangnja ?

6. Berapakah seperdua tiga kali seperempat dari 48.

7. Bapa membajar upah 4 orang kulinja sebanjak Rp. 100,— Upah keempat orang itu sama banjak. Berapakah upah masing-masing ?

8. Wang si Saman ada 350 sen. Wang si Samin 175 sen lebih dari Saman. Berapa wang talikah wang keduanja ?

9. Djumlah murid kelas I dan kelas II 108 orang. Murid kelas I 61 orang. Berapa orangkah murid kelas II ?

10. Djumlah murid kelas I, II dan kelas III ada 144 orang. Murid kelas I 68 orang, kelas II 42 orang. Berapa orangkah mumurid kelas III ?

§ XXIX.

1.

36	56	63	32
76 ×	84 ×	83 ×	58 ×
/ ..... /	8 / ..... /	7 / ..... /	8 / ..... /

2.

81	91	84	48
87 ×	85 ×	92 ×	96 ×
9 /..... /	7 /..... /	4 /..... /	6 /..... /

3.
420 — 296 = ...
530 — 375 = ...
630 — 373 = ...
720 — 682 = ...
850 — 396 = ...

4.
320 — 190 = ...
840 — 468 = ...
750 — 476 = ...
680 — 586 = ...
920 — 888 = ...

5. 750 — 388 = ...
670 — 592 = ...
930 — 455 = ...
860 — 561 = ...

6. 560 — 273 = ...
440 — 282 = ...
830 — 386 = ...
1020 — 644 = ...

7. **Peringatan dan Tjontoh :**
Hitungan Fasal XXVIII No. 3, 4, 5 dan 6 mengurangkannja tidak djalan kebawah, tetapi begini : **Umpamanja :**
420 — 296 = 220 — 90 — 6 = 130 — 6 = 124.

8. Wang Marjam ada seringgit. Dibelandjakannja $^2/_5$ nja. Berapakah itu ? Berapa sisanja ?

9. **Djumlahkan dengan djalan kebawah :**
846 + 1347 + 2258 + 73 + 1082 + 429 = ...

10. **Kalikan dengan djalan ringkas ! ! !**

6 × 19 + 4 × 19 + 8 × 19 = ...
8 × 26 + 9 × 26 + 6 × 26 = ...
8 × 35 + 6 × 35 + 5 × 35 = ...

§ XXX.



1.

1 djam = 60 menit.

1 menit = 60 detik.

1 djam = ... × ..... detik
= ..... detik.

2. Seorang berdjalan dalam 1 djam 45 hm. 2 djam didjalaninja ..... m.

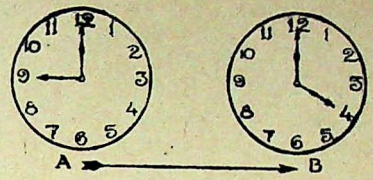

a) Pukul berapa pada A ? b) Pukul berapa pada B ? Berapa djamkah lamanja dari A sampai ke B ? Dan berapa menitkah itu ?

4. K u r a n g i l a h :

9242	1179	9480	8613
686 —	894 —	807 —	718 —

5.

9150	9810	8340	9410
6142 —	8157 —	753 —	6375 —

6. „Pendjelasan²".



Inilah satu sentimeter persegi. Biasa dituliskan orang 1 cm². Ukuran pandjang jang ketjil biasanja diukur dengan cm. Suatu bidang jang ketjil biasanja diukur dengan cm².



Empat persegi pandjang ini pandjangnja 6 cm. lebarnja 4 cm. Berapa petak jang 1 cm² dapat kita gambarkan dalam budjur sangkar itu ?

Hitunglah berapa cm² luas empat persegi pandjang itu !

8. Sebuah empat persegi pandjang, pandjangnja 11 cm, lebarnja 8 cm. Berapa cm^2 luasnja ?

9. **Kalikanlah .**

82 × 46	75 × 47	93 × 64	97 × 95	84 × 81	77 × 71
83 × 35	87 × 63	91 × 34	87 × 67	57 × 29	66 × 63

10. 257 × 24 ; 157 × 36 ; 137 × 46 ; 134 × 33 ; 186 × 65

§ XXXI.

1. Fahamkan gambar ini :



2. Irwan membeli telur dipekan dengan harga Rp. 8,35. Karena kurang hati² membawanja ada beberapa butir jang petjah. Sisanja itu didjualnja kembali dengan harga Rp. 7.75. Berapa senkah Irwan rugi ?

3. Kelereng Aziz sebelum bermain dengan Burhan ada 333 buah. Setelah bermain dihitungnja kelerengnja tinggal 288 buah. Berapakah kalah Azis ?

4. **Hitunglah:** $3\frac{1}{6} + 4\frac{5}{6} + 6\frac{1}{4} + 4\frac{3}{4} - 2\frac{7}{9} = \ldots\ldots$

5. $(16 + 49 + 769 - 466 + 256 - 374) \times 208 = \ldots\ldots$

6. $(169 + 77 - 106 - 95 + 56 + 249 - 206) \times 26 = \ldots$

7. $65 \times 179 - 56 \times 179 = \ldots\ldots\ldots$

8. $^3/_5 \times 820 + {}^5/_6 \times 720 - {}^5/_8\ 960 = \ldots\ldots\ldots\ldots$

9. $6755 : 5 = \ldots\ldots\ldots$
   $4725 : 5 = \ldots\ldots\ldots$

10. $6072 : 3 = \ldots\ldots\ldots$
    $7070 : 5 = \ldots\ldots\ldots$

§ XXXII.

1. $1\ dm^2 = 100\ cm^2$
   $2\ dm^2 = \ldots\ldots\ cm^2$
   $3\ dm^2 = \ldots\ldots\ cm^2$
   $5\ dm^2 = \ldots\ldots\ cm^2.$
   $7\ dm^2 = \ldots\ldots\ cm^2$

2. $300\ cm^2 = \ldots\ldots\ldots\ dm^2$
   $900\ cm^2 = \ldots\ldots\ldots\ dm^2$
   $1200\ cm^2 = \ldots\ldots\ldots\ dm^3$
   $1700\ cm^2 = \ldots\ldots\ldots\ dm^2$
   $800\ cm^2 = \ldots\ldots\ldots\ dm^2$

3. **1 meter persegi** ialah pandjang 1 m dan lebar 1 m.
   1 desameter persegi, pandjang 1 dam dan lebar 1 dam.
   1 hectometer persegi, pandjang 1 hm dan lebar 1 hm.

4. $1\ m^2 = 10 \times 10\ dm^2 = 100\ dm^2$. (10 dm × 10 dm).
   $1\ dam^2 = 10 \times 10\ m^2 = 100\ m^2$. (10 m × 10 m).
   $1\ hm^2 = 10 \times 10\ dam^2 = 100\ dam^2$. (10 dam × 10 dam).
   $1\ hm^2 = 100 \times 100\ m^2 = 10.000\ m^2$ (100 m × 100 m).

5. $1\ hm^2$ dinamakan (disebutkan) djuga hectare (ha).
   $1\ dam^2$ dinamakan (disebutkan djuga are (a).
   $1\ m^2$ dinamakan (disebutkan) djuga centiare (ca).

6. $4\ hm^2 = \ldots\ldots\ ha = \ldots\ldots\ dam^2 = \ldots\ldots\ a.$
   $4\ dam^2 = \ldots\ldots\ a = \ldots\ldots\ m^2 = \ldots\ldots\ ca.$

7. **Leretkan kebawah :**
   $866 + 2347 + 3258 + 73 + 1082 + 429 = \ldots\ldots\ldots$

8. **Berapakah selisih antara :**
   $97 \times 97 - 57 \times 57$ dan $106 \times 106 - 74 \times 74$?
   $103 \times 103 - 57 \times 57$ dan $92 \times 92 - 78 \times 78$?

9. 1 m^2 = 1 ca. 1 dam ^{2} = 1 a.
1 hm^2 = 1 ha.
Sebidang sawah pandjangnja 90 m dan lebarnja 70 m. Djadi luasnja = ... m^2 = ... ca = ... a.

10. Pandjang 90 m. Lebar 80 m. Keliling: ..... m = ... dam. Luas: ..... m^2 = ... dam^2 = ... a.

§ XXXIII.

1. 1 meter persegi = 1 m^2 jakni pandjang 1 m dan lebar 1 m. meter ialah **ukuran pandjang,** karena kita pakai akan mengukur pandjang sesuatu benda. m^2 ialah **ukuran luas,** sebab kita pakai akan mengukur luas sesuatu bidang, umpamanja : luas lantai kebun, pekarangan dan sebagainja.
Luas itu kita peroleh dengan djalan memperbanjakkan bilangan **pandjang** dan bilangan **lebar.** (**Tjontoh:** pandjang lantai itu = 5 × 4 m^2 = 20 m^2).

2. 3 dm^2 = ... cm^2
500 cm^2 = ... dm^2
3½ dm^2 = ... cm^2

3. 2½ dm^2 = ... cm^2.
700 cm^2 = ... dm^2
4 dm^2 = ... cm^2.

4. 9 × 5 kurang ..... dari pada 8 × 12.

5.



Bapa membeli kereta angin dengan angsuran seharga Rp. 850,— Mula-mula dibajarnja Rp. 350,— Dan sisanja tiap bulan harus dibajar bapa Rp. 100,— Dalam berapa bulan lunas (habis) angsuran bapa ?

6. **Isilah:**

..... — 835 = 335.
..... — 735 = 345.
..... — 665 = 355.

7.

..... — 332 = 998.
..... — 443 = 898.
..... — 554 = 776.

8. ..... — 385 = 285.
..... — 485 = 485.
..... — 585 = 685.

9. ..... — 839 = 200.
..... — 933 = 400.
..... — 845 = 500.

10. 72 gobang + 9 tali + 17 ketip + 27 kelip = ... sen.

§ XXXIV.

1. 0,1 dibatja sepersepuluh atau satu persepuluh bahagian ($^1/_{10}$ bahagian).
2,1 artinja $2^1/_{10}$ bahagian.
0,2 artinja $^2/_{10}$ bahagian.
Rp. 0,1 artinja $^1/_{10}$ rupiah = $^1/_{10}$ × 100 sen = 10 sen.
(Harus diingat bahwa biasa kita tuliskan begini : **Rp. 0,10.**
Rp. 1,30 artinja 1 rupiah dan $^3/_{10}$ rupiah atau 1 rupiah dan 30 sen.

2. **Isilah:**

0,2 = $^2/_{10}$.	2.2 = ...	4,9 = ...
0,4 = ...	2,4 = ...	3.3= .....
0.5 = ...	4,5 = ...	5,6 = ...
2,8 = ...	6.7 = ...	6,1 = ...

3.



Ibu menabung wang sebanjak Rp. 325,— Ia hendak membeli mesin djahit seharga Rp. 550,— Berapakah kurang wang ibu lagi ?

4. Kebun si Azis pandjangnja 75 m. lebarnja 48 m. Kelilingnja ..... m. Sekeliling kebunnja itu dipasangnja 3 utas kawat duri. Berapa m diperlukan kawat duri semuanja ?

5. Sebuah kedai Tionghoa mempunjai 1 tong minjak jang banjaknja 275 liter. Minjak itu diisikannja kedalam kaleng jang isinja tiap2 kaleng 5 liter. Berapa kalengkah jang diisinja itu ?

6. 6253 — 3682 — 1438 — 883 — 250 = ...

7. 8785 — 4336 — 294 — 1407 — 2748 = ...

8. $^1/_5 \times 900 + {}^1/_5 \times 750 - {}^1/_7 \times 560 =$ .....

9. (7820 : 92) + (4 × 1209) — (8174 : 56) = ...

10. $3^2/_3 \times 36 + 2^1/_5 \times 60 - 17/_{10} \times 90 =$ .....

§ XXXV.

1. 1 dm^2 = ... m^2.
   1 hm^2 = ... m^2.
   1 hm^2 = ... dam^2 = ... ca.

2. 1 ca = 1 .....
   1 are = 1 .....
   1 ha = 1 .....

3. 400 m^2 = ... dam^2
   6 hm^2 = ... dam^2.
   20000 m^2 = 2.....

4. Guru memberi hadiah pinsil kepada 7 orang murid. Tiap-tiap murid menerima 2 pinsil. Dan pinsil guru masih ada lagi 3 buah. Berapa pinsil guru mula2 ?

5.



Hasjim memberikan kelerengnja kepada tiga orang temannja. Masing-masing mendapat 7 butir. Kelereng Hasjim masih ada 9 buah. Berapakah kelereng Hasjim mula-mula ?

6. 4714 — 392 — 669 — 517 — 2764 — 352 = ...

7. 0,2 m = 2 dm.
   0,2 dm = ... cm.
   0,2 hm = ... dam.

8. 0,2 m = ... cm.
   0,2 dam = ... m.
   0,3 hm = ... m.

9. 3,1 m = ... dm.
   5,3 dam = ... m.
   6,1 dm = ... cm.

10. **Ketjilkan :** $3^2/_8$ = ...
    $4^5/_{10}$ = ...
    $6^6/_8$ = ...

§ XXXVI.



1.

Si Irwan tidur pukul 8 lewat 30 menit. Ia bangun pagi² pukul 5.30. Berapa djam lamanja ia tidur ?

2. $4^1/_6 - 2^5/_6$ = ...
   $8^4/_7 - 2^5/_7$ = ...
   $7^2/_5 - 5^4/_5$ = ...
   $3^1/_8 - 7/_8$ = ...

3. $5^1/_4 - 4^3/_4$ = ...
   $7^2/_7 - 2^5/_7$ = ...
   $3^1/_8 - 2^3/_8$ = ...
   $3^3/_7 - 1^4/_7$ = ...

4. $4^3/_5 - 1^4/_5$ = ...
   $5^1/_8 - 1^5/_8$ = ...
   $5^1/_4 - 1^3/_4$ = ...
   $13^1/_6 - 5^5/_6$ = ...



5. Seorang saudagar rumah, mendjual 2 buah rumah. Jang sebuah didjualnja Rp. 6800,— Jang sebuah lagi dengan harga Rp. 5200,— Berapakah didjualnja kedua rumah itu ?

6. Paman mendjual sepertiga dari hasil sawahnja seharga Rp. 375,— Berapa diterima paman kalau didjualnja semuanja hasil sawahnja itu ?

7.
$13\frac{1}{2} + 35 = \ldots\ldots$
$48\frac{1}{2} + 50 = \ldots\ldots$
$72\frac{1}{2} + 45 = \ldots\ldots$
$77\frac{1}{2} + 80 = \ldots\ldots$
Djumlah $= \ldots\ldots$

8.
$32\frac{1}{2} + 7\frac{1}{2} = \ldots\ldots$
$47\frac{1}{2} + 57\frac{1}{2} = \ldots\ldots$
$72\frac{1}{2} + 27\frac{1}{2} = \ldots\ldots$
$97\frac{1}{2} + 97\frac{1}{2} = \ldots\ldots$
Djumlah $= \ldots\ldots$



9. Si Amir dan si Hasan disuruh guru menjampul kitab, banjaknja 686 kitab. Berapakah disampul si Amir dan si Hasan masing2, kalau sama banjaknja ?

10. **Mudahkan dan djumlahkan :**
$3^5/_{10}$, $4^1/_8$, $5^6/_{10}$, $3^2/_4$, $5^4/_{10}$, $3^3/_5$.

§ XXXVII.

1. 0,01 artinja seperseratus bahagian. ($^1/_{100}$ bahagian). 1,11 artinja satu jang genap dan sebelas perseratus bahagian. ($1\ ^{11}/_{100}$).

2. Rp. 0,01 = 1 sen. Rp. 0,56 = 56 sen.
Rp. 0,13 = 13 sen. Rp. 3,33 = 3 rupiah dan 33 sen.

3. **I s i l a h :**
0,2 = $^2/_{10}$ = $^1/_5$. 0,02 = $^2/_{100}$ = $^1/_{50}$.
4,8 = ... 9,5 = ...

4. 2,03 = $2^3/_{100}$.
8,08 = ...
3,09 = ...
4,49 = ...

5. 4,21 = ...
6,7 = ...
5,67 = ...
0,8 = ...

6.



Paman membeli seekor kuda dengan harga Rp. 925,— Kuda itu didjual paman kembali dengan harga Rp. 1200,— Berapakah paman berlaba (beruntung ?).

7. **Tjontoh : Buatlah begini:**
Harga pendjualan Rp. .....
„ pembelian Rp. .....
Laba Rp. .....

8. 2456 + 7344 = ...
9455 − 6986 = ...
6944 − ..... = ...
7172 + ... = ...

9. 3875 + 2986 = ...
8117 − 2799 = ...
..... + 3512 = ...
..... + 4466 = ...

10. $5\frac{2}{3} \times 36 + 4\frac{1}{5} \times 60 - 3\frac{7}{10} \times 90 =$ .....

§ XXXVIII.

1. Sebuah auto dapat menempuh dalam 1 djam 55 km. Berapakah ditempuhnja: 4 djam, 11 djam, 14 djam, 16 djam ?



Hitunglah dengan tjepat :

2. $4 \times 18 + 5 \times 18 + 8 \times 18 =$ .....

3. $6 \times 25 + 8 \times 25 + 5 \times 25 =$ .....

4. $8 \times 34 + 6 \times 34 + 5 \times 34 =$ .....

5. $6 \times 26 + 9 \times 26 + 5 \times 26 =$ .....

Tuliskan dengan memakai koma. (petjahan persepuluhan!)

6. $\frac{7}{10}$ = ...
$1\frac{1}{10}$ = ...
$\frac{3}{10}$ = ...

7. $\frac{7}{100}$ = ...
$5\frac{17}{100}$ = ...
$3\frac{7}{10}$ = ...

8. $5\frac{5}{100}$ = ...
$\frac{1}{100}$ = ...
$2\frac{8}{100}$ = ...

9. $8\ ^{9}/_{10}$ = ...
$9^{17}/_{100}$ = ...
$11\ ^{5}/_{100}$ = ...

10. 3,45 m = ...m + ... dm + ... cm
5,63 m = ...m + ... dm + ... cm
5,92 m = ...m + ... dm + ... cm

§ XXXIX.

1.

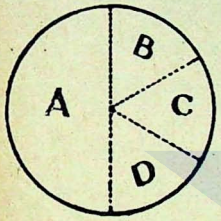

Perhatikanlah gambar ini ! Disini kita lihat ada 4 bahagian jang mendjadikan sebuah lingkaran. (A + B + C + D).

Atau boleh kita katakan bah sebuah lingkaran (bulatan) dibahagi atas 4 bahagian (A, B, C. dan D).

Sekarang hitunglah dan isilah !

2. A adalah ..... bahagian dari lingkaran.
B adalah ..... „ „ „
C + D adalah ..... „ „ „
A + B adalah ..... „ „ „

Tuliskan dengan bilangan jang berkoma :

3. empat persepuluh =.....
lima perseratus = ...
tudjuh persepuluh = ...
setengah = ...

4. seperempat = ...
satu tiga perempat = ...
dua lima perseratus = ...
empat tiga puluh per seratus = ...

5. tudjuh empat puluh tudjuh perseratus = ...

sebelas tiga perseratus = ...

dua belas sembilan perseratus = ...

sembilan empat persepuluh = ...

6. 85 × 93 lebih ..... dari pada 78 × 82.

7. **Kurangkanlah !**

42,6	35,7	8. 33,456
13,75	11,23	11,837
9. 435,3	75,6	10. 55,4
26,24	3,02	4,82

75,44	
6,365	
15,7	
1,23	



1. Sebuah kereta api berangkat dari B pukul 6.30. Dan tiba dikota M pukul 7.15. Berapa djamkah lamanja kereta api itu didjalan ?

2. 45 × 45 + 35 × 35 + 25 × 25 = ...

3. 10 × 0,1 = ... 10 × 0,02 = ... 10 × 0,003 = ...
10 × 0,3 = ... 10 × 0,04 = ... 10 × 2,006 = ...
10 × 0,4 = ... 10 × 0,05 = ... 10 × 0,008 = ...
10 × 0,5 = ... 10 × 0,07 = ... 10 × 0,214 = ...
10 × 0,6 = ... 10 × 0,15 = ... 10 × 0,048 = ...

6. 100 × 0,85 = ... 7. 100 × 5,04 = ...
100 × 0,76 = ... 100 × 4,05 = ...
100 × 3,175 = ... 100 × 2,625 = ...
100 × 2,95 = ... 100 × 3,074 = ...
100 × 4,25 = ... 100 × 4,116 = ...



9. Herman dengan mengendarai sepeda berangkat dari A ke C tjepatnja 15 km sedjam. (I) Berapa djamkah ditempuh Herman djalan A–C.

10. **Isilah tanda-tanda** (×; :, +, –) :

120 . 4 = 40. 101 . 2 = 202. 280 . 10 = 290.
120 . 4 = 116. 101 . 2 = 103. 280 . 10 = 2800

§ XLI.

1. 1,42 hm = ... m.
2,72 hm = ... m.
7,73 hm = ... m.

2. 0,86 hm = ... dam + ... m.
0,57 hm = ... dam + ... m.
0,56 hm = ... dam + ... m.

3. 5,46 hm = ... hm + ... dam + ... m.
5,27 hm = ... hm + ... dam + ... m.
7,07 hm = ... hm + ... dam + ... m.

Ingatlah:

4. 1 hl = 100 liter.
1 dal = 10 liter.
1 l = 1 liter.
1 dl = 0,1 liter.
1 cl = 0,01 liter.

5. 3 hl = ... l.
4 dal = ... l.
9 l = ... l.
6 dl = ... l.
4 cl = ... l.

6. 416,24 liter = ... hl + ... dal + ... l + ... dl + ... cl
279,16 liter = ... hl + ... dal + ... l + ... dl + ... cl
303,05 liter = ... hl + ... dal + ... l + ... dl + ... cl

7. Burhan umurnja 13 tahun. Aziz 15 tahun dan Idrus 7 tahun lebih muda dari pada Aziz. Berapa tahunkah djumlah umur ketiga mereka itu ?

8. Rp. 4,35 — Rp. 0,66 = ...
Rp. 6,77 — Rp. 3,93 = ...
Rp. 0,86 — Rp. 0,59 = ...

9. Rp. 8.66 — Rp. 4,88 = ...
Rp. 9,37 — Rp. 5,66 = ...
Rp. 38,40 — Rp. 7,60 = ...

10. Rp. 364,60 — Rp. 37,90 = Rp. .....
Rp. 68,90 — Rp. 41,— = Rp. .....
Rp. 478,70 — Rp. 104,90 = Rp. .....
Rp. 256,50 — Rp. 82,70 = Rp. .....

§ XLII.

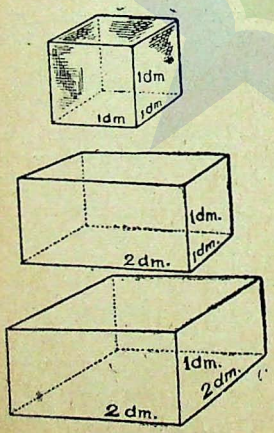

1. Kotak ini pandjang, lebar dan tingginja 1 dm. Isinja = 1 dm^3 = 1 liter.

Kotak ini pandjangnja 2 dm lebarnja 1 dm dan tinginja 1 dm. Kotak 2 × sebesar kotak jang pertama, djadi isinja = 2 dm^3 (... l). Djalannja : mengalikan : pandjang × lebar × tinggi. (2 × 1 × 1 dm^3 = 2 dm^3 (..... l).

Pandjang = ... dm.
Lebar = ... dm.
Tinggi = ... dam.
Isinja : = ... × ... × ... dm^3 = ... dm^3.

2. Kelereng Amat ada 55 buah. Ia kalah $\frac{3}{5}$ dari kelerengnja. Berapa tinggal kelerengnja?

3. $6497 : 73 + 121 - 13 \times 15 + 15 \times 14 =$ .....

4. $\frac{14 \times 36}{12} + \frac{48 \times 12}{16} + \frac{45 \times 10}{15} =$ .....

5.

25 rupiah	=	sen.
20 tali	=	sen.
26 kelip	=	sen.
54 ketip	=	sen.
Djumlah	=	sen.

6.

6	m^3 = ...	dm^3
$3\frac{1}{2}$	m^3 = ...	dm^3
$5\frac{1}{4}$	m^3 = ...	dm^3
4	m^3 = ...	dm^3
Djumlah	=	dm^3

7.

0,2 × Rp. 2000	= Rp.....
0,3 × Rp. 3000	= Rp.....
0,7 × Rp. 7000	= Rp.....
0,5 × Rp. 5000	= Rp.....
Djumlah	= Rp.....

8.

$3 \times 26 \times 17$	= .....
$2 \times 25 \times 46$	= .....
$2 \times 9 \times 20$	= .....
$3 \times 17 \times 15$	= .....
Djumlah	= .....

9. $\frac{3}{8} \times 3600 - \frac{3}{4} \times 1600 + \frac{5}{7} \times 1470 - \frac{2}{9} \times 540 =$ .....

10. Kelereng Salmah 58. Mula-mula ia menang 26 dan kemudian 22. Esok harinja mula-mula ia kalah 25, sudah itu menang lagi 17. Berapakah kelereng Salmah sekarang ?

UDJIANMU

a. Djika engkau tadjin dalam segala pelajaran-pelajaranmu, menanglah engkau dalam: „UDJIANMU".

b. Sesal dahulu pendapatan.
Sesal kemudian tiada berguna.

c. Beriak tanda tak dalam,
Bergontjang tanda tak penuh.

d. Tak ada gading jang tak retak,
Kalau tak retak bukannja ia gading.

e. Tak ada bukit jang tak dapat didaki.
Tak ada lurah jang tak dapat dituruni.

TJATATAN.


DEPARTEMEN PENDIDIKAN DAN KEBUDAYAAN
PUSAT PEMBINAAN PERPUSTAKAAN



à Rp. 5.–



à Rp. 5.–





Dj. I à Rp. 4.50 Dj. II à Rp. 5.50
Dj. III à Rp. 6.– Dj. IV à Rp. 6.50
Dj. V á Rp. 7.–

à Rp. 6.–

Setiap pesanan tambah ongkos 15 pCt.

Pertjetakan „MADJU" - Medan.



à Rp. 12.50

PERPUSTA

Pertj. „MADJU" — MEDAN